Viernes 14 de mayo del 2021

Demuestro lo que aprendí en Ciencia y Tecnología

Nombres y apellidos:

1. Marca V o F
   - Los organismos unicelulares pueden formar parte de los eucariotas y de los procariotas.
   - Los organismos pluricelulares existen en mayor cantidad en comparación a los organismos unicelulares.
   - La célula fue descubierta por un científico inglés llamado Robert Hooke
   - Las células microscópicas son células grandes que pueden ser observadas a simple vista.

2. Relaciona

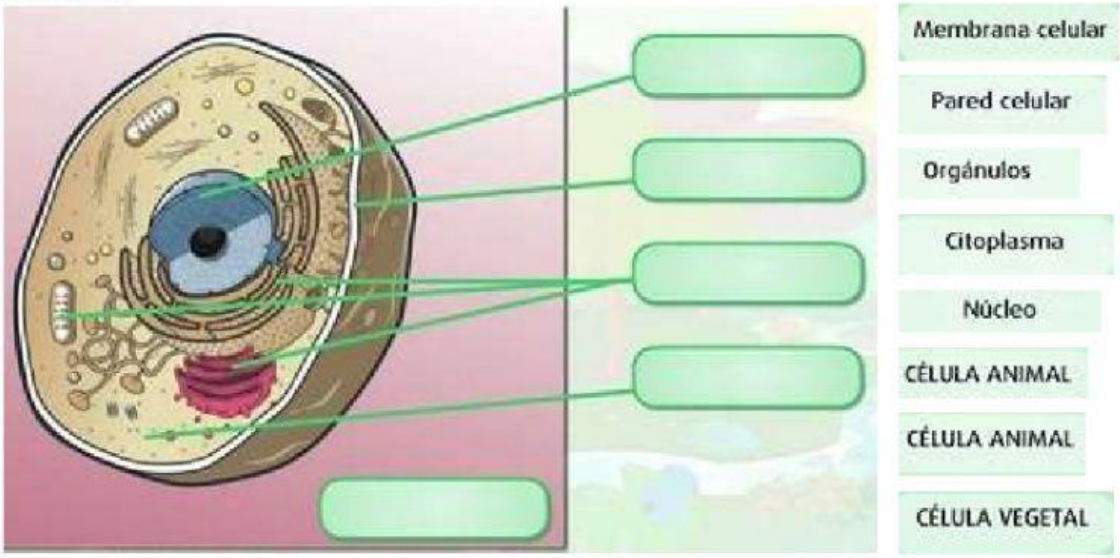

3. Marca la alternativa correcta:
   - En su interior se encuentran los cromosomas:
     a. Núcleo
     b. Bacterias

   - Son seres vivos que tienen más resistencia a las condiciones ambientales extremas:
     a. Seres Unicelulares
     b. Seres Pluricelulares

LIVEWORKSHEETS

- Las células de _____ tienen forma estrellada:
  a. La piel
  b. Las neuronas

- Es un medio acuoso de apariencia viscosa:
  c. Citoplasma
  d. Pared celular

4. Escribe UNICELULAR o PLURICELULAR según corresponde:

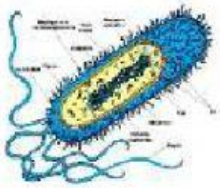


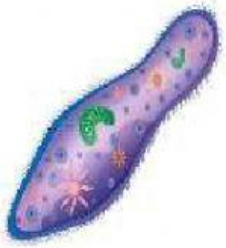

5. Arrastra las características al tipo de célula que le corresponde:

UNICELULARES	PLURICELULARES

Solo tienen una célula
Tienen dos o más células
Eucariotas
Procariotas y eucariotas
Más pequeños
Muchos hábitats distintos pero no resisten tanto los extremos
Resisten incluso en hábitats muy extremos
No forman estructuras complejas
Forman estructuras complejas (tejidos, órganos y sistemas)
Más grandes

LIVEWORKSHEETS