Colegio Adolfo Beyzaga
Ovando
"Por el camino del saber"

Evaluación de proceso N° 1 Matemática

Segundo Básico A 2021

Objetivo: Evaluar contenidos vistos en clases en la asignatura y así monitorear los Aprendizajes esperados.

Fecha: 14 – 05 – 2021.

Profesora: Leonora Venegas Navarro.

Especialista: Jennifer Velasco Ramírez.

Nombre:

1.- Cuenta el total de elemento, identifica ¿Cuántos grupos de 10 y de elementos, se pueden formar, mira el ejemplo

a)

Se pueden formar 20 Grupos de 10 y 6 elementos = 26

b)

Se pueden formar Grupos de 10 y elementos =

c)

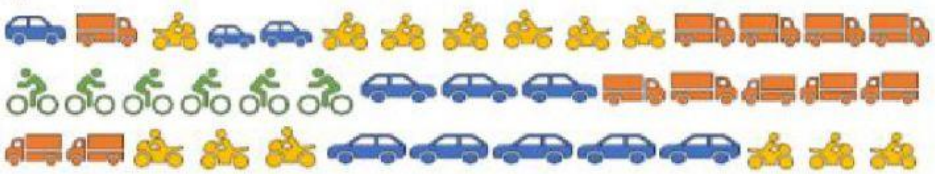

Se pueden formar Grupos de 10 y elementos =

LIVEWORKSHEETS

2.- Ordena los números de menor a mayor.

75 – 29 – 92 – 87 – 72

80 – 18 – 62 – 57 – 82

3.- Escribe el número en cifras.

Cincuenta y cuatro	
Ochenta y siete	
Diecisiete	
Trece	
Setenta y ocho	

4.- Observa los números y determina cual es el mayor, menor o igual, no olvides utilizar los signos: >, < o =

05		50
67		76
88		88
21		12
01		10
40		40
94		49
25		50

5.- Escribe "SI" cuyas tarjetas sumen 10 y "NO" aquellas tarjetas que sumen menos o mas de 10.

7 4	2 8	9 1	5 4	4 6	7 4

3 7	5 5	8 3	1 7	6 5	8 3

LIVEWORKSHEETS

6.- Selecciona la alternativa correcta escribiéndola en el recuadro azul.

1. El doble de 6 es:

   a) 10
   b) 12
   c) 14

2. La abuela tiene “ochenta y siete” años. Este número se escribe:

   a) 87
   b) 78
   c) 807

3. El número representado es:

   a) Veinticinco
   b) treinta y cinco
   c) tres y cinco

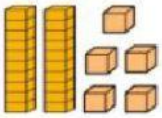

1. ¿De qué número 4 es la mitad?

   a) 8
   b) 9
   c) 10

7.- Escribe las unidades y decenas que se muestran en cada caso. Escribe en el recuadro, el número que se forma.

		U D
_____D +	_____U =	



		U D
_____D +	_____U =	



		U D
_____D +	_____U =	



		U D
_____D +	_____U =	

LIVEWORKSHEETS

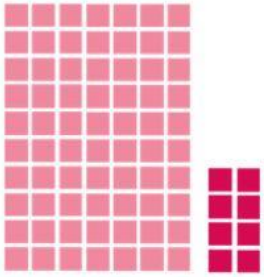

U D

_____D + _____U = ☐

U D

_____D + _____U = ☐

8.- **Identifica las decenas y unidades de cada número**

NÚMERO	DECENA	UNIDAD
43		
66		
52		
95		
74		
27		

9.- Escribe en el recuadro azul uno de los dos números dependiendo del enunciado, sigue el ejemplo.

a) El número 9 en el lugar de la unidad

94 49 → 49

b) El número 4 en el lugar de las decenas

24 42 → ☐

c) El número 0 en el lugar de las unidades.

50 0 → ☐

d) El número 7 en el lugar de las decenas.

77 87 → ☐

e) El número 3 en el lugar de las decenas

13 31 → ☐

LIVEWORKSHEETS