Escola Sesc Santo Amaro

Nome: _____

Professora: Priscylla Karollyne

Data: ____/_____/_____ 2º Ano - A

Atividade de Matemática (Casa)

1) Observe o quadro.

1	2	3	4	5	6	□	8	9	10
△	12	13	14	15	16	17	18	19	20
21	22	23	24	✱	26	27	28	29	☾
31	32	33	34	35	36	37	38	●	40
41	42	✂	44	45	46	47	48	49	50
51	52	53	54	55	56	57	☆	59	60
61	62	63	⊙	65	66	67	68	69	70
71	72	73	74	75	☙	77	78	79	80
81	♡	83	84	85	86	87	88	89	◇
91	92	93	94	95	96	☺	98	99	



Agora, substitua os símbolos pelos numerais.

♡		⊙		✂		✱	
☆		☙		☾		☺	
□		△		●		◇	

2) Decomponha os números conforme o exemplo.

a) 12: Uma dezena e duas unidades

LIVEWORKSHEETS

b) 19: _____

c) 23: _____

d) 32: _____

e) 39: _____

f) 40: _____

g) 57: _____

h) 78: _____

i) 97: _____

3) Complete com o número ordinal, observando o quadro abaixo e o exemplo.

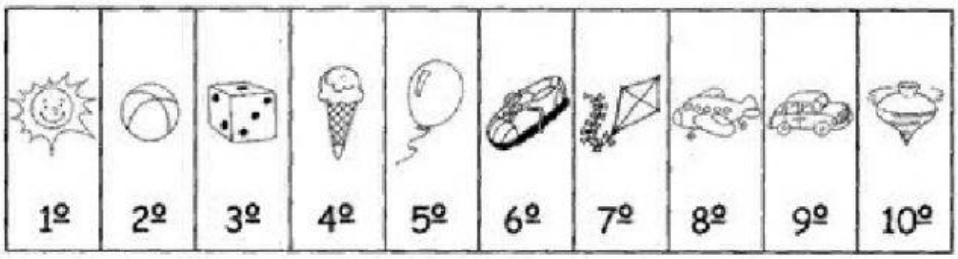

a) O 4º é o sorvete.
b) _____
c) _____
d) _____
e) _____
f) _____
g) _____
h) _____
i) _____
j) _____

4) Preencha os espaços conforme o numeral correspondente. Depois, indique o resultado.

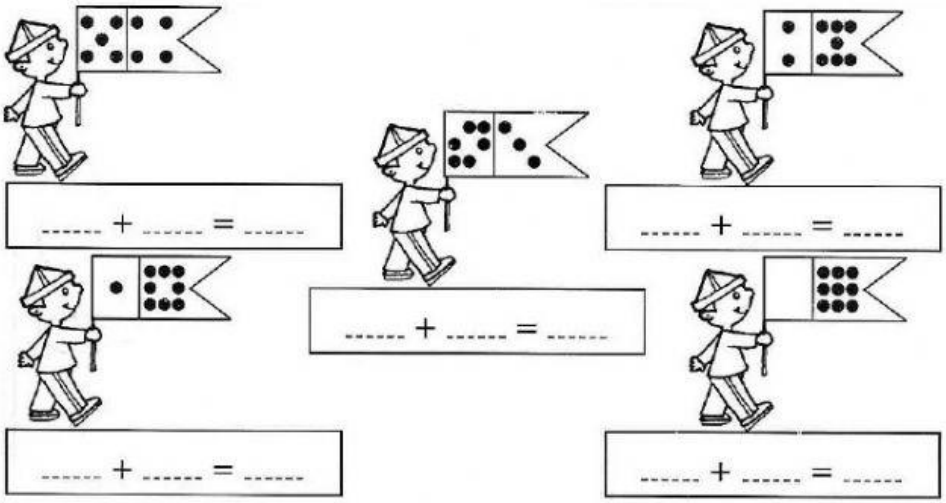

LIVEWORKSHEETS