Evaluación de matemáticas

Grado 101

Con ayuda de un adulto, realiza la lectura de cada una de las preguntas y sigue la indicación. Recuerda que los adultos solo ayudamos en la lectura, pero los niños son los que deben contestar las preguntas.

1. Escribe la letra de cada regleta.

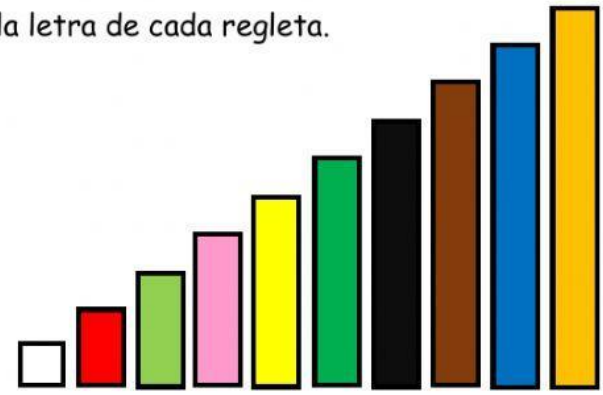

__ __ __ __ __ __ __ __ __ __

2. Arrastra y ubica en forma descendente:

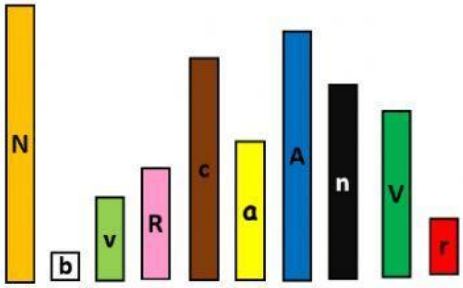

Orden descendente

3. Completa la construcción del número, según corresponda.

____	6	_____	
___	_____	dos	
____	7	_____	
____	____	_____	

LIVEWORKSHEETS

4. Selecciona la respuesta correcta:

- Observa las siguientes regletas y determina ¿Cuál es la suma que representa?

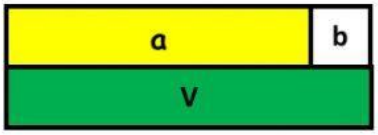

a. 5 – 1 = 6
b. 5 + 1 = 6
c. 3 + 3 = 6

- Observa las siguientes regletas y determina ¿Cuál es la suma que representa?

a. 9 – 5 = 4
b. 4 + 5 = 9
c. 5 + 4 = 9

- Observa las regletas ¿cuál es la **resta** que representan?

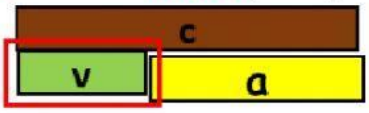

a. 8 – 3 = 5
b. 3 + 5 = 8
c. 8 - 5 = 3

- Selecciona la regleta con la que completas y solucionas la resta.

a. b
b. R 

c. A 

- ¿En qué posición esta Lucas?

a. 1°
b. 2°
c. 4°

LIVEWORKSHEETS

5. Escribe el **número** anterior o siguiente según corresponda:

_____5 _____

_____3_____

6. Completa la relación escribiendo sí es **mayor** o **menor**

- 6 es _____ que 9
- 4 es _____ que 1
- 5 es _____ que 8
- 6 es _____ que 2

LIVEWORKSHEETS