Evaluación Diagnóstica Matemática

Nombre: _____ **Fecha:** _____

Curso: _____ **Pje total: 30 pts. Pje Obt.** _____

I.- Eje Números y operaciones

1. Marca la alternativa correcta a cada uno de los enunciados.

   i. ¿Qué número representa la siguiente figura? (1 pto)

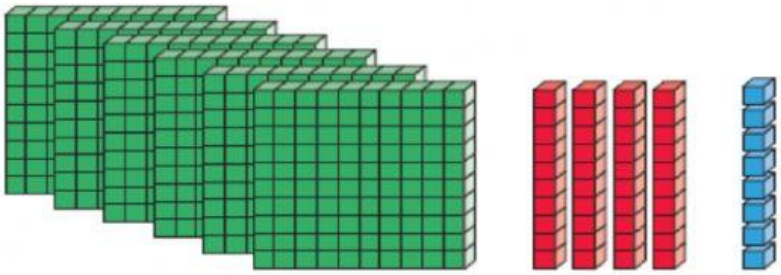

   a) Seiscientos ochenta y cuatro.
   b) Seiscientos cuarenta y ocho.
   c) Ochocientos cuarenta y ocho.

   ii. ¿Cuál es el resultado de la siguiente adición? (2 pts)

	C	D	U
	3	0	1
	3	4	5
+	3	2	1

a) 967
b) 976
c) 977

LIVEWORKSHEETS

iii. ¿Qué multiplicación permite calcular la cantidad de flores que hay en este jardín? (1pto)



a) 3 • 4
b) 3 • 6
c) 3 • 7

2. Escribe el resultado de las siguientes multiplicaciones. (8 pts)

a)4 • 4 =	b) 6 • 7 =
c) 3 • 7 =	d) 6 • 9 =
e) 9 • 8 =	f) 5 • 8 =
g) 4 • 3 =	h) 7 • 8 =

3. Escribe el resultado de las siguientes divisiones. (6 pts)

a) 81: 9 =	b) 63: 7=
c) 100:10=	d) 16: 4 =
e) 28: 7=	f) 40 : 8 =

LIVEWORKSHEETS

II.- Eje Patrones y algebra

1. Observa, ¿Cuál es el patrón de la secuencia? (2 pts)

a) Sumar 50

b) Restar 50

c) Restar 100

2. La siguiente figura muestra una parte de la tabla del 100. ¿Cuál es el número que debe ir en el cuadro rojo? (2 pts)

16	17	18	19	20

a) 29

b) 49

c) 39

LIVEWORKSHEETS

III.- Eje Geometría

1.- Completa la tabla de los cuerpos geométricos con el número de aristas, caras y vértices. (8 pts)

Nombre	Dibujo	Caras	Vértices	Aristas
	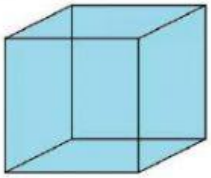		8	
				8

¡¡Gran trabajo!!

LIVEWORKSHEETS