LINCOLN INTERNATIONAL ACADEMY
SPECIAL NEEDS

FORMAS DE RELIEVE

1. Arrastra el nombre que corresponde a la forma de relieve.

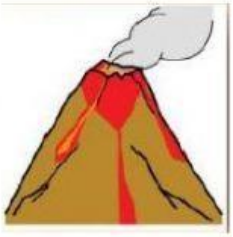



CORDILLERA | VOLCÁN | VALLE | MAR

LLANURA | RÍO | MONTAÑA

LIVEWORKSHEETS

LINCOLN INTERNATIONAL ACADEMY
SPECIAL NEEDS

2.Relaciona cada definición con la forma de relieve.

Cadena de montañas unidas entre sí.

Territorio plano rodeado de montañas.

Elevación de tierra. Está compuesta por 3 partes: cima, falda y pie.

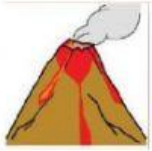

Superficies planas de terreno con vegetación.

Cuerpo de agua salada limitado por costas de un lado y de océano por otro el lado.

Montaña con un cráter que lanza lava, ceniza y roca.

Corrientes de agua dulce que desembocan en otro río o en el mar.

LIVEWORKSHEETS

LINCOLN INTERNATIONAL ACADEMY
SPECIAL NEEDS

3. Observa la siguiente imagen y luego escribe el nombre de cada forma de relieve.

ALTIPLANO	VALLE	LLANURA	MONTAÑA
CORDILLERA	NEVADO	COLINA	VOLCÁN

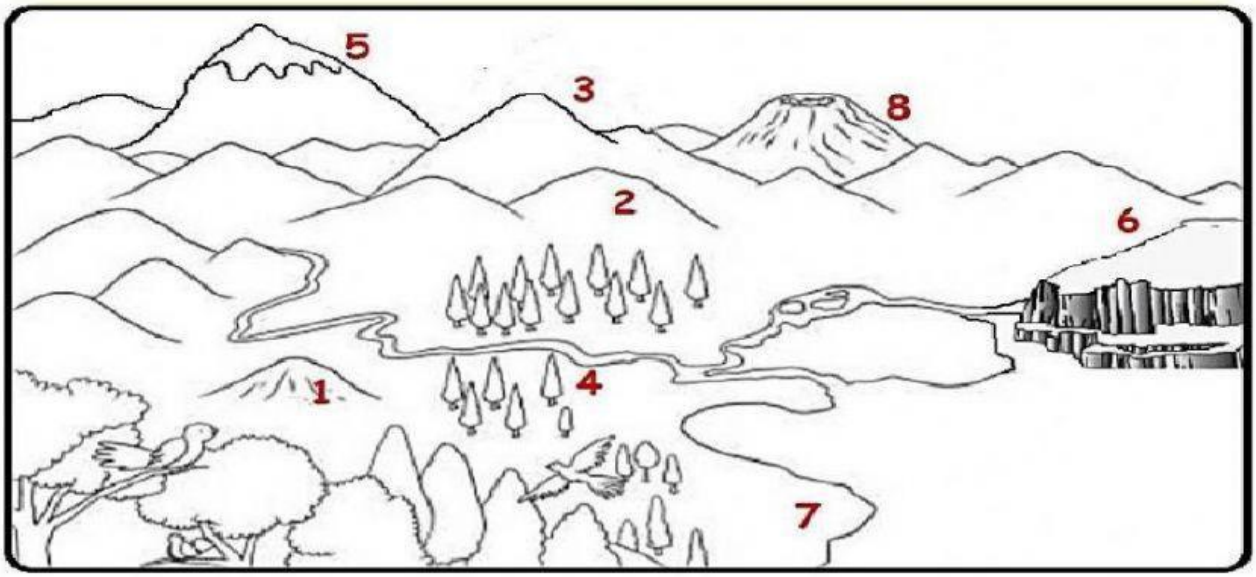

1. _____ 5. _____

2. _____ 6. _____

3. _____ 7. _____

4. _____ 8. _____

LIVEWORKSHEETS