HOJA DE TRABAJO 2 PARA 6° GRADO

ELABORADO POR EL LIC. AMILCAR DELGADO

A. INSTRUCCIONES: Encuentre el área de las siguientes figuras.

A.1)

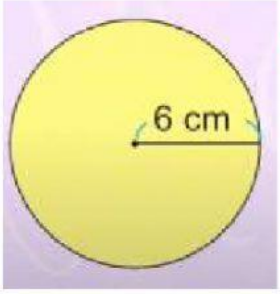

Área = radio x radio x ¶

Área= ____ x ____ x ____

Área= ____ cm^2

Respuesta

A.2)

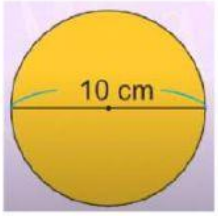

Área = ____ x ____ x ¶

Área= ____ x ____ x ____

Área= ____ cm^2

Respuesta

B. INSTRUCCIONES: Calcule el área pintada de las siguientes figuras.

B.1)

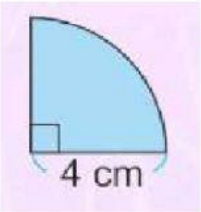

Área = (____ x ____ x ¶) ÷ 4

Área=(____ x ____ x ____) ÷ 4

Área= ____ cm^2 ÷ 4

Área= ____ cm^2

Respuesta

B.2)

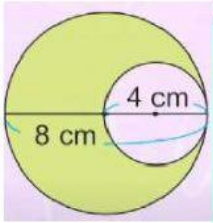

$Área_{grande}$ = ____ x ____ x ¶

$Área_{grande}$ = ____ x ____ x ____

$Área_{grande}$ = ____ cm^2

Respuesta 1

$Área_{pequeña}$ = ____ x ____ x ¶

$Área_{pequeña}$ = ____ x ____ x ____

$Área_{pequeña}$= ____ cm^2

Respuesta 2

ÁREA TOTAL =

$Área_{grande}$ — $Área_{pequeña}$

____ cm^2 – ____ cm^2

____ cm^2

Respuesta

LIVEWORKSHEETS