# Construimos fórmulas

Aprendizaje esperado: Construye y usa una fórmula para calcular el perímetro de polígonos, ya sea como resultado de la suma de lados o como producto.

Énfasis: Obtiene una fórmula para calcular el perímetro de polígonos irregulares.

**INSTRUCCIÓN: Observa el siguiente video y después calcula el perímetro de los tres polígonos irregulares.**

## Calcula el perímetro de los siguientes polígonos irregulares

A

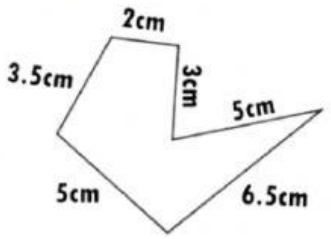


P= _____

B

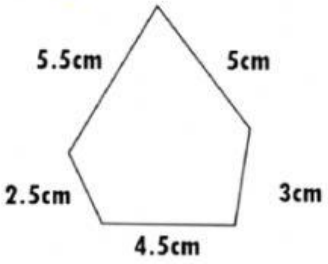


P= _____

C

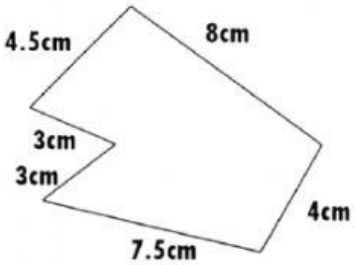


P= _____

LIVEWORKSHEETS