هكذا هو صاحب النفس التواقة للمعالي، لا يرضى بسفاسف الأمور، ولا يرضى بالدنية في شيء من أمور حياته، ومن باب أولى بعد مماته، فتراه يستغل كل ساعة في رمضان، فيقضيها في عمل يرضي الله، أو كلمة ترضي الله، أو سماع ما يرضي الله

سلطنة عمان

وزارة التربية والتعليم

المديرية العامة للتربية والتعليم بمحافظة الظاهرة

مدرسة مقنيات للتعليم الأساسي(٥-١٢)

التقويم البنائي (ميل الخط المستقيم)

١ اختر الإجابة الصحيحة:

ميل المستقيم الموضح في الشكل المقابل:

أ ٣ ب -٣

ج $\frac{١}{٣}$ د $\frac{-١}{٣}$

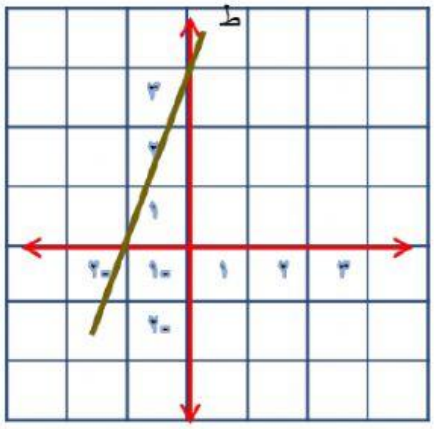

٢- ميل المستقيم أ يساوي :

أ)٦ ب) ٣

ج) -٣ د) ٣

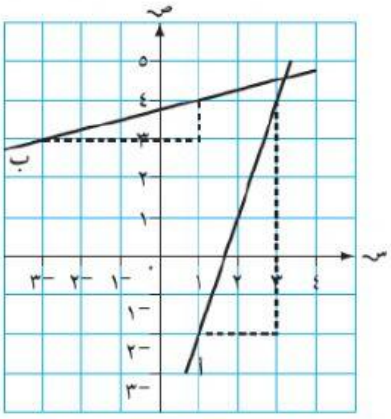

LIVEWORKSHEETS

٣ **صِل كل مستقيم بميله :**

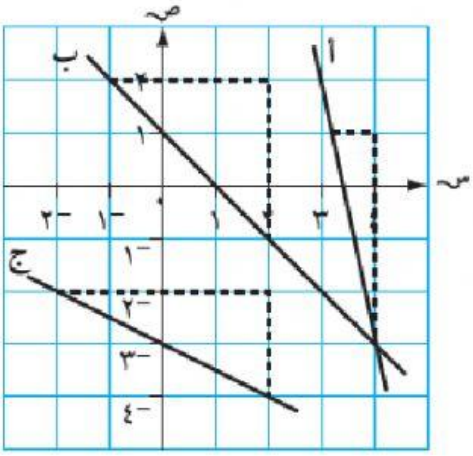

١] ميل المستقيم أ

٢]ميل المستقيم ب

٣]ميل المستقيم ج

أ] $-\frac{١}{٢}$

ب] $\frac{١}{٢}$

ج] -١

د] -٤

حلا موفقا

معلمة المادة : أ. نـــــادية الكلبـانية

LIVEWORKSHEETS