GÉOMÉTRIE	Le classement des quadrilatères

Énoncé 1. Donne le nom (utiliser les lettres du schéma) **des quadrilatères suivants en commençant par la lettre C. Indique la/les caractéristique(s) de ces figures.**

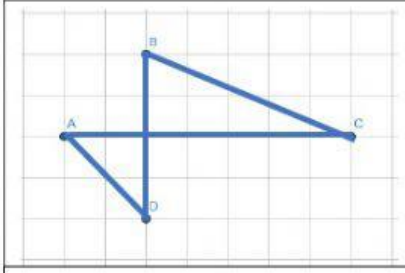	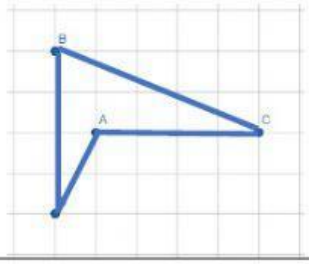	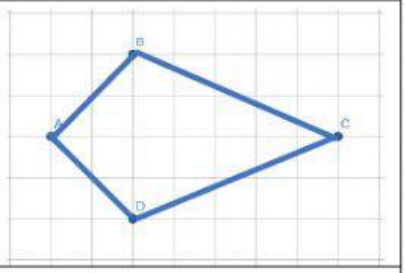
_____	_____	_____

Énoncé 2. Complète les phrases suivantes :

- Un _____ est toujours un _____ mais un _____ n'est pas toujours un _____.
- Un _____ est toujours un _____ mais un _____ n'est pas toujours un _____.
- Un _____ est toujours un _____ mais un _____ n'est pas toujours un _____.
- Un _____ est toujours un _____ mais un _____ n'est pas toujours un _____.
- Un _____ est toujours un _____ mais un _____ n'est pas toujours un _____.
- Un _____ est toujours un _____ mais un _____ n'est pas toujours un _____.
- Un _____ est toujours un _____ mais un _____ n'est pas toujours un _____.
- Un _____ est toujours un _____ mais un _____ n'est pas toujours un _____.

LIVEWORKSHEETS

Énoncé 3. Place les noms des polygones au bon endroit dans le diagramme de Venn suivant :

carré	hexagone	hexagone régulier	parallélogramme	losange
pentagone	rectangle	triangle acutangle équilatéral	trapèze	pentagone régulier
deltoïde	Cerf-volant			

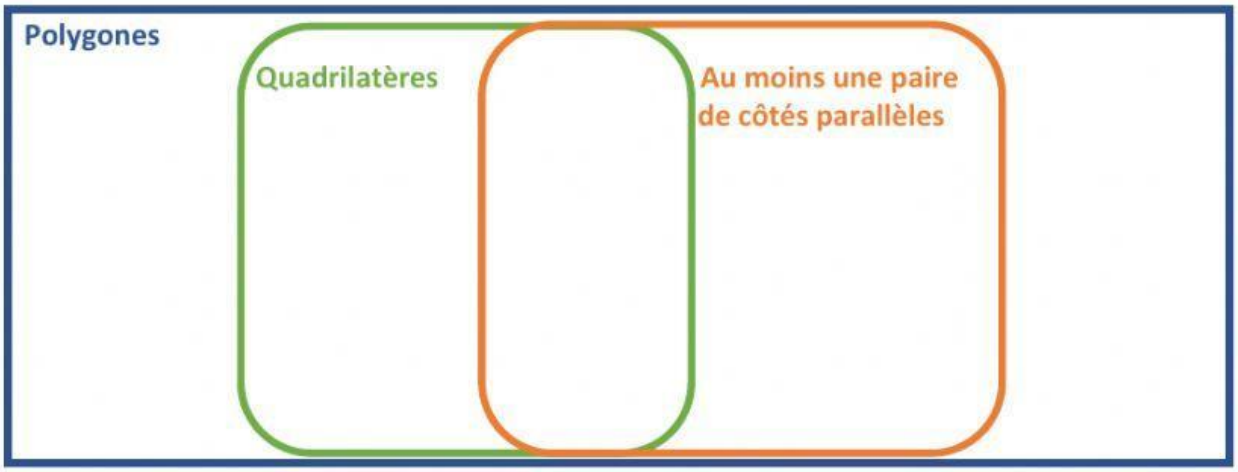

Énoncé 4. Complète le diagramme suivant avec les critères de chaque classe :

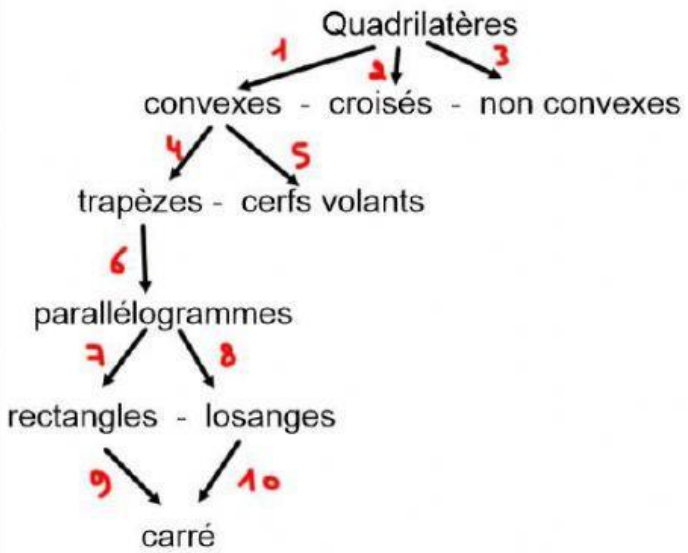

1._____
2._____
3._____
4._____
5._____
6._____
7._____
8._____
9._____
10._____

LIVEWORKSHEETS