HUSTOTA – test

1. Vyber správnou značku hustoty:

α		π		ρ	

2. Přiřaď, co k sobě patří:

g/cm^3
kg/m^3

základní jednotka hustoty
vedlejší jednotka hustoty

3. Přiřaď hustotu k dané látce:

1 800 kg/m^3
750 kg/m^3
4 500 kg/m^3
2 700 kg/m^3

titan
křída
hliník
benzin

4. V tabulce jsou tři kostičky z různých materiálů o objemu 1 m^3. Do prvního řádku pod obrázkem napiš hustotu látky, kterou nalezneš v tabulkách (piš pouze číslo). Do druhého řádku napiš pod krychličky jejich pořadí od nejlehčí (1) po nejtěžší (3).

	litina 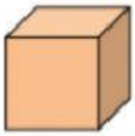	pryž 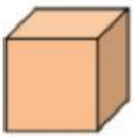	beton 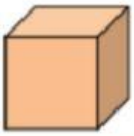
hustota látky v kg/m^3			
pořadí			

LIVEWORKSHEETS