SUPERFICIE DE POLÍGONOS

1- Teniendo como unidad de medida el cuadro indicado, completa la descripción de cada polígono, indicando también cuál es su superficie.

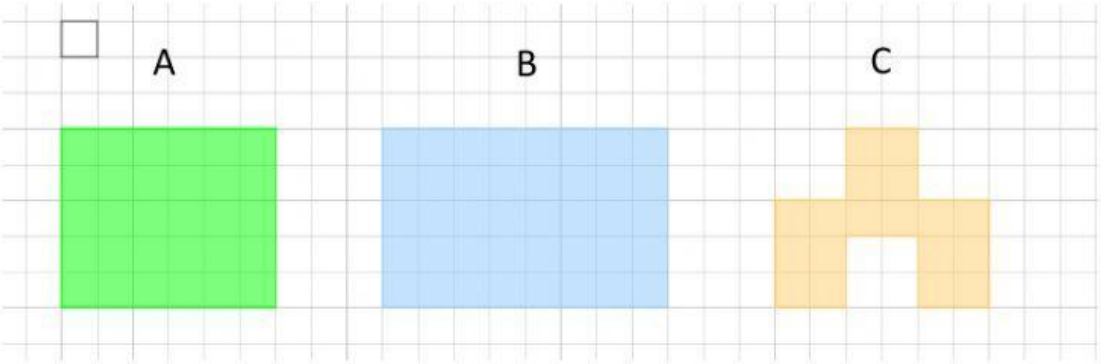

a) El polígono A es un ……porque tiene …… lados. Su superficie es de ……. u.c.(unidades cuadradas).

b) El polígono B es un ……porque tiene …… lados. Su superficie es de ……. u.c.

c) El polígono C es un dodecágono porque tiene …… lados. Su superficie es de …… u.c.

2- Indica la superficie de cada uno de estos polígonos utilizando la u.c. como unidad de medida de la misma.

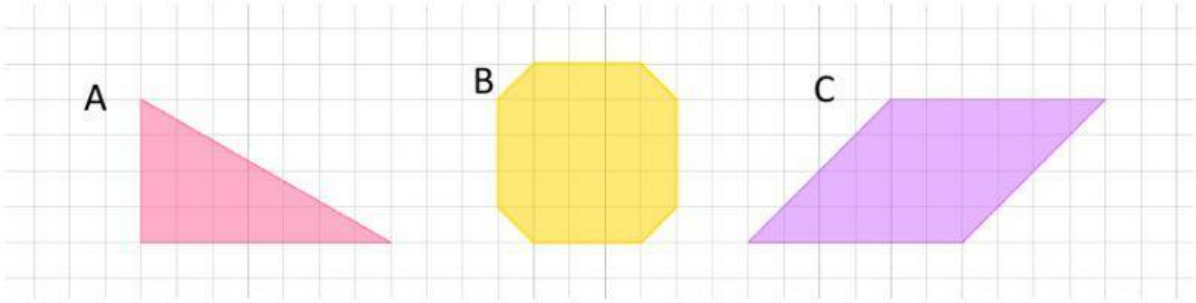

……. u.c. ……. u.c. ……. u.c.

LIVEWORKSHEETS

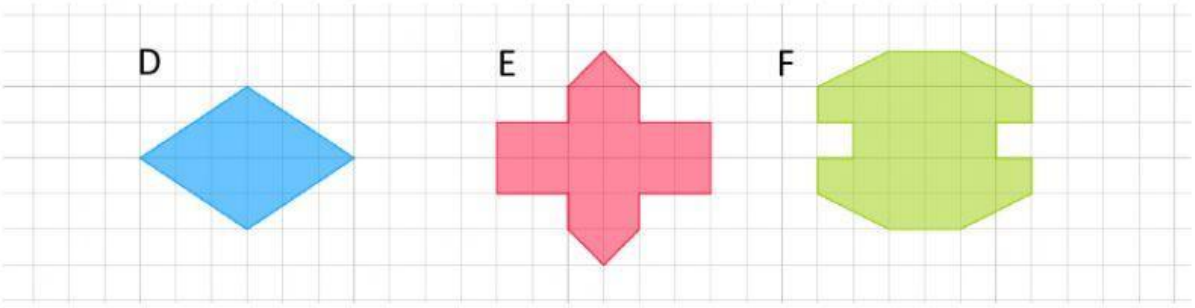

……. u.c. ……. u.c. ……. u.c.

3- Escribe en mayúscula la letra de la figura de la actividad 2 que se describe a continuación.

a) Es un cuadrilátero cuya superficie es de 12 u.c. → …..
b) Es un triángulo → …..
c) Este polígono tiene una superficie de 24 u.c. y no es un cuadrilátero→ …..
d) El tetradecágono tiene una superficie de 18 u.c. → …..
e) Es un octógono → …..

LIVEWORKSHEETS