Matemática



TAREA DIAGNÓSTICA

MATEMÁTICA

CAJA DE HERRAMIENTAS

DOCENTE: LIC. MARTHA MOLINA

AÑO: SÉPTIMO "A"

AÑO LECTIVO: 2021-2022

ESCUELA "ALEJANDRO ALVEAR"

LIVEWORKSHEETS

ESCUELA DE EDUCACIÓN BÁSICA "ALEJANDRO ALVEAR"		**AÑO LECTIVO: 2021-2022**

TAREAS DE DIAGNÓSTICO

ÁREA:	GRADO/NIVEL	JORNADA
MATEMÁTICA	7MO "A" y "B"	Matutina

ESTUDIANTE:		FECHA:	

Nº	Planteamiento

1 ***Escriba en los círculos los literales, según las coordenadas dadas.***

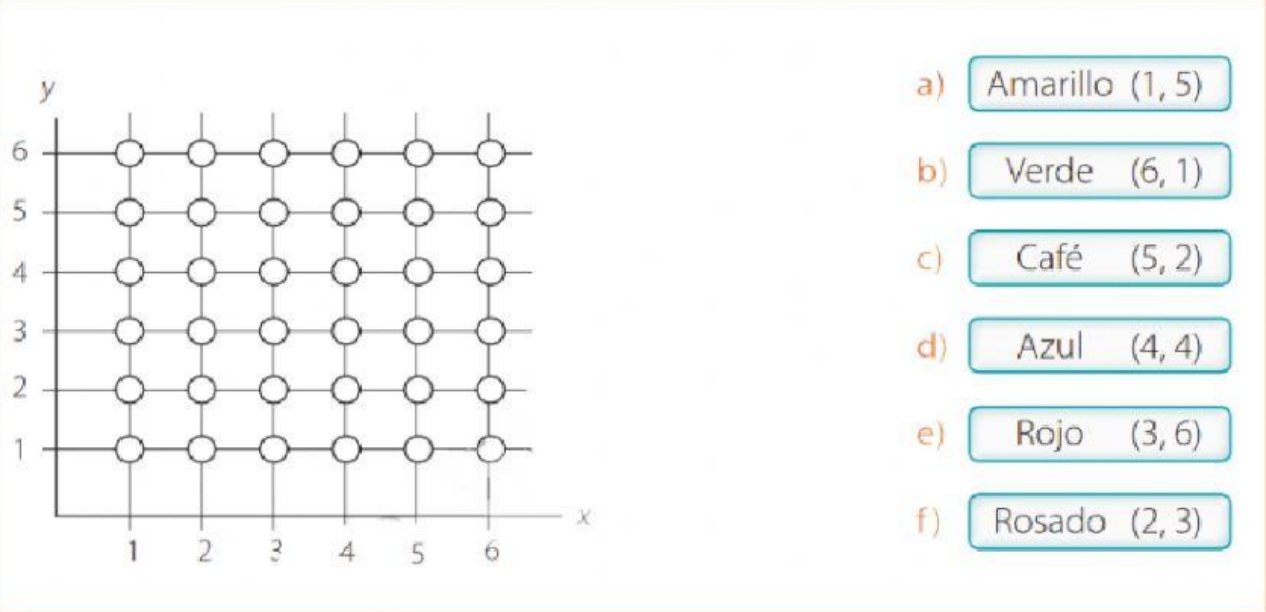

2 ***Escribe la secuencia de las decenas completas en forma Ascendente***

88	100	112						

Descendente

580	573		559					

LIVEWORKSHEETS

3 ***Lee y resuelve los siguientes problemas.***

Carlos durante el año de pandemia uso 410 mascarillas y su mamá la mitad que el uso ¿Cuántas mascarillas usaron Carlos y su mamá?

Datos	Razonamiento	Operación
Respuesta:		

4 ***Plantea las siguientes multiplicaciones y resuelve.***

345 675 x 54 =

653 213 x 49 =

Escribe las respuestas de la multiplicación en letras.

LIVEWORKSHEETS

5 ***Observe muy bien los dibujos y los precios luego encierre la opción correcta de cuánto gastó Marcelo.***

$10	*$25*	*$ 5*	*$ 15*	*$ 1*

Marcelo compró 3 libros y dos pelotas.

A. *190*

B. *330*

C. *100*

D. *105*



LIVEWORKSHEETS