Tiriamasis darbas

„Šviesos atspindys“

Tikslas:

Hipotezė:

Darbo priemonės:

Darbo eiga: Atlikite užduotis ir užpildykite lentelę.

a) Nustatykite kiekvienu atveju šviesos kritimo kampus ir surašykite į lentelę.
b) Nustatykite kiekvienu atveju šviesos atspindžio kampus ir surašykite į lentelę.
c) Padarykite išvadą.

Eil. Nr.	Kritimo kampas	Atspindžio kampas	Tiriamasis darbas
1.			

LIVEWORKSHEETS

2.			
3.			

Išvada:

LIVEWORKSHEETS