ACTIVIDAD DE POTENCIA Y LOGARITMO

1. Observa la imagen y halla la base y el exponente, observa el ejemplo

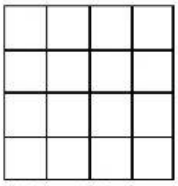

Hay 16 cuadros
Base 4 Exponente 2



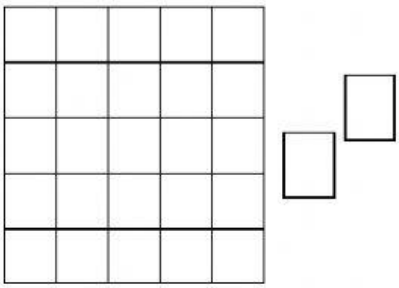

2. Aplicando las propiedades de la potencia resuelve

$3^6 \div 3^4$ _____

8×8^5 _____

$12^0 + 3^0$ _____

3. Para su matrimonio Eva preparó 6 centros de mesa con 6 ramos en cada uno, si cada ramo tiene 6 flores ¿Cuántas flores utilizó Eva?

LIVEWORKSHEETS

4. Halla el logaritmo en cada caso

$\log_8 512 =$

$\log_3 243 =$

$\log_4 1024 =$

5. Resuelve

$\log_2 4 + 34^0$

$4^3 + 2 =$

$6^2 \times \log_6 36$

LIVEWORKSHEETS