GEOMETRÍA

Figuras en el plano

Observa las figuras y completa con el nombre de cada una de ellas y los elementos que ya conoces (lado, vértice, ángulo).

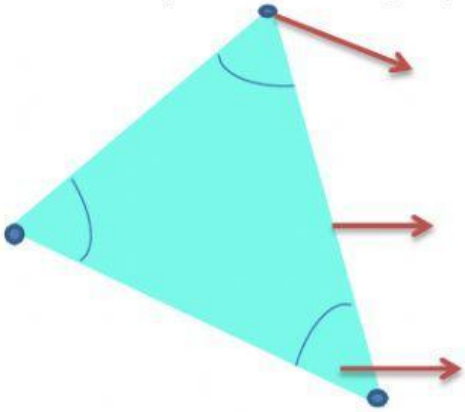

Es un _____.

Tiene _____ lados, _____ vértices y 3 _____.

Es un _____.

Tiene _____ lados, _____ vértices y _____ ángulos.



Es un _____.

Tiene _____ lados.

Tiene _____ vértices.

Tiene ---------- ángulos.

Es un _____.

Tiene _____ lados.

Tiene _____ vértices.

Tiene ---------- ángulos.



Es un _____.

Tiene _____ lados.

Tiene _____ vértices.

Tiene ---------- ángulos.

LIVEWORKSHEETS