Practiquemos para el Desafío #2 de Matemática

1. Escriba la cantidad y cuántas centenas, decenas y unidades hay, como se ve en el ejemplo:



213

2 C, 1 D y 3 U

1

___C , ___D y ___U

2



___C , ___D y ___U

3



___C , ___D y ___U

4

___C , ___D y ___U

5

Practiquemos para el Desafío #2 de Matemática

2. Completa el conteo:

a. De 5 en 5:

215					

a. De 10 en 10:

525					

b. De 100 en 100:

235					

3. Escribe con cifras cada número:

a. Doscientos uno: _____

b. Ochocientos cuarenta y siete: _____

c. Ciento veintitrés: _____

d. Quinientos setenta y dos: _____

e. El número formado por 6 C, 5 D y 4 U: _____

f. El número formado por 8 C, 9 D y 2 U: _____

g. El número formado por 1 C, 1 D y 4 U: _____

h. El número formado por 4 C, 8 D y 9 U: _____

i. Novecientos veintidos: _____

j. Ciento cincuenta:

Practiquemos para el Desafío #2 de Matemática

4. Cuenta las monedas y escribe en cifras el total:

Total: ☐

Total: ☐

Total: ☐