تدريب 22

A. قرّب الكسر الاعتيادي $\frac{7}{8}$ إلى 0 أو $\frac{1}{2}$ أو 1

الإجابة: _____

B. قرّب العدد الكسري $1\frac{1}{50}$ إلى أقرب عدد كلي.

الإجابة: _____

C. مشى خالد مسافة $\frac{1}{3}\ km$ ، ثم مشى مسافة $\frac{1}{6}\ km$.

أوجد المسافة الإجمالية التي قطعها خالد.

$$\frac{\square}{\square} + \frac{\square}{\square} = \frac{\square}{\square} + \frac{\square}{\square} = \frac{\square}{\square}$$

LIVEWORKSHEETS

تدريب 23

A. قرّب الكسر الاعتيادي $\frac{11}{12}$ إلى 0 أو $\frac{1}{2}$ أو 1

الإجابة: _____

B. قرّب العدد الكسري $1\frac{1}{40}$ إلى أقرب عدد كلي.

الإجابة: _____

C. مشى سعيد مسافة $\frac{1}{5}\ km$ ، ثم مشى مسافة $\frac{1}{10}\ km$.

أوجد المسافة الإجمالية التي قطعها سعيد.

$$\frac{\square}{\square} + \frac{\square}{\square} = \frac{\square}{\square} + \frac{\square}{\square} = \frac{\square}{\square}$$

LIVEWORKSHEETS

تدريب 24

رسم راشد وماهر النموذجين أدناه، اعتمد النماذج للإجابة عن الأسئلة التالية.

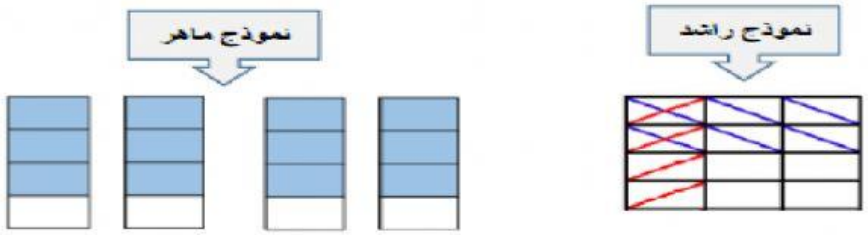

A. أي من الطلاب رسم نموذج يمثّل عملية الضرب $4 \times \frac{3}{4}$ ؟

الإجابة: _____

B. اوجد ناتج ضرب الكسرين الاعتياديين

$$\frac{2}{4} \times \frac{1}{3} = \frac{\square}{\square}$$

LIVEWORKSHEETS

تدريب 25

رسم راشد وماهر النموذجين أدناه، اعتمد النماذج للإجابة عن الأسئلة التالية.

نموذج راشد

نموذج ماهر

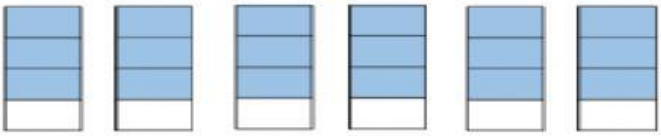

A. أي من الطلاب رسم نموذج يمثّل عملية الضرب $6 \times \frac{3}{4}$ ؟

الإجابة: _____

B. اوجد ناتج ضرب الكسرين الاعتياديين.

$$\frac{1}{4} \times \frac{2}{5} = \frac{\square}{\square}$$

LIVEWORKSHEETS

تدريب 26

A. استعمل النموذج أدناه

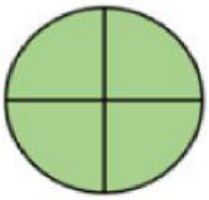

كم كسراً من $\frac{1}{4}$ في العدد 1 ؟

الإجابة: _____

LIVEWORKSHEETS

B. رسم كل من سالم حمد النموذجين.

نموذج سالم

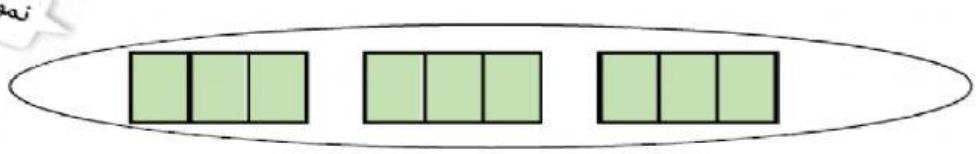

نموذج حمد

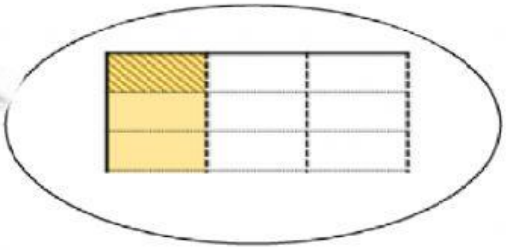

اختر النموذج المناسب للإيجاد $\frac{1}{3} \div 3$

$= \frac{\square}{\square}$

LIVEWORKSHEETS

تدريب 27

A. استعمل النموذج أدناه

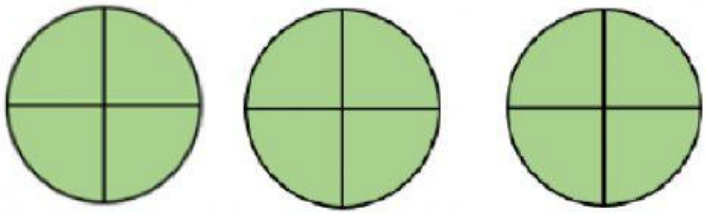

كم كسراً من $\frac{1}{4}$ في العدد 3 ؟

الإجابة: _____

LIVEWORKSHEETS

B. رسم كل من سالم حمد النموذجين.

نموذج سالم

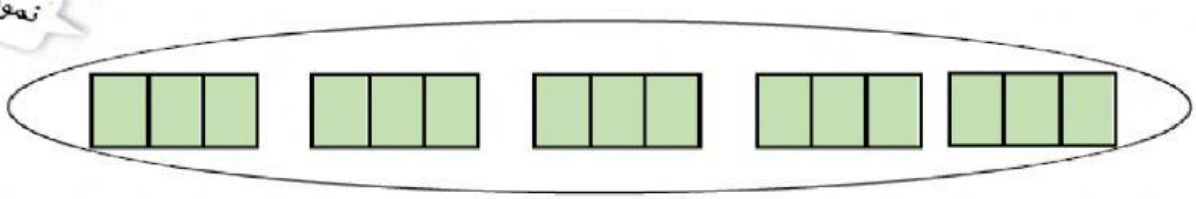

نموذج حمد

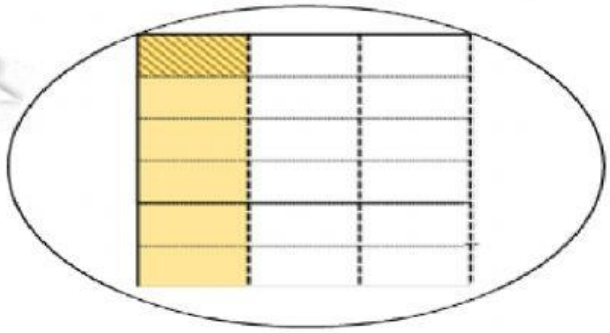

اختر النموذج المناسب للإيجاد $5 \div \frac{1}{3}$ _____ $= \frac{\square}{\square}$

LIVEWORKSHEETS