EXAMEN BIMESTRAL DE RAZ MATEMÁTICO

INSTITUCIÓN EDUCATIVA PRIVADA
"SEMILLITAS DE VIDA"

PROFESORA: AILY MELISSA GUTARRA BONIFAZ

1. CONTEO DE FIGURAS (Desarrolla y completa el cuadro) ¿Cuántos triángulos hay?

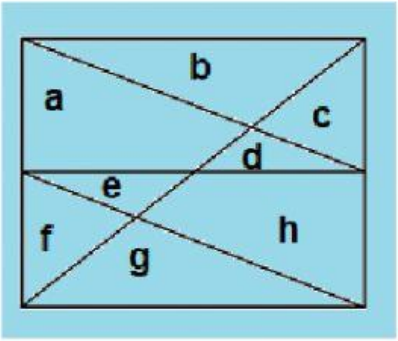

	Desarrolla libremente	total
De 1		
De 2		
De 3		
De 4		

2. CONTEO DE CUBOS (Desarrolla y completa el cuadro) ¿Cuántos cubos hay?

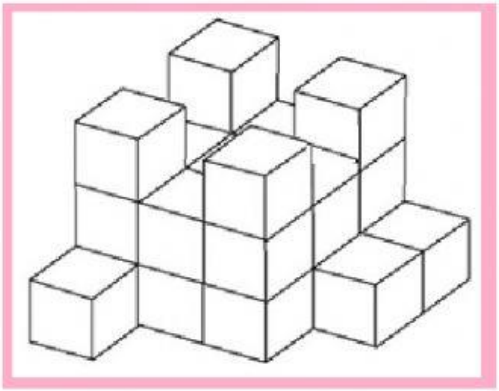

	total
3er piso	
2do piso	
1er piso	
TOTAL	

3. CONTEO DE CUBOS (Desarrolla y completa el cuadro) ¿Cuántos cubos hay?

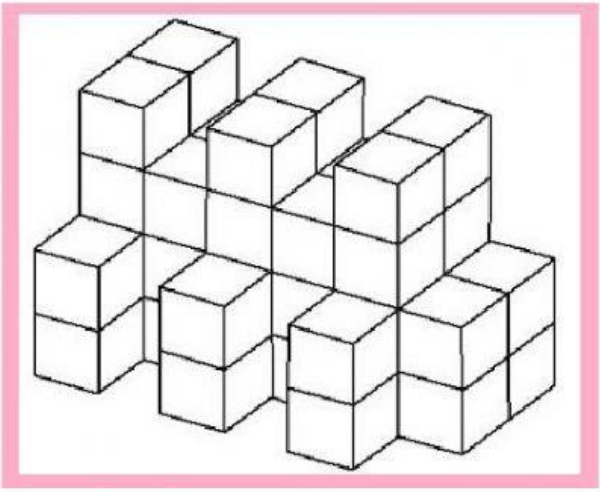

	total
4to piso	
3er piso	
2do piso	
1er piso	
TOTAL	

POFESORA: AILY MELISSA GUTARRA BONIFAZ

LIVEWORKSHEETS

4. CONTEO DE FIGURAS CON UN ELEMENTO DENTRO (Desarrolla y completa el cuadro) ¿Cuántos triángulos hay con un asterisco dentro?

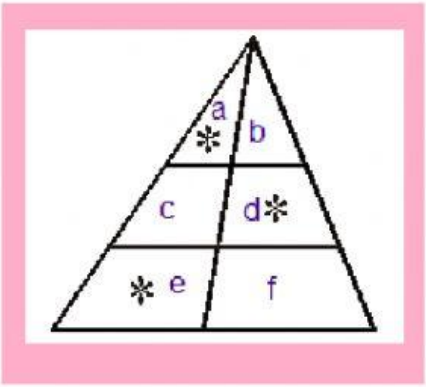

	Desarrolla libremente	total
de 1		
de 2		
de 3		
de 4		
de 5		
de 6		

5. CONTEO DE FIGURAS CON UN ELEMENTO DENTRO (Desarrolla y completa el cuadro) ¿Cuántos cuadriláteros hay con un asterisco dentro?

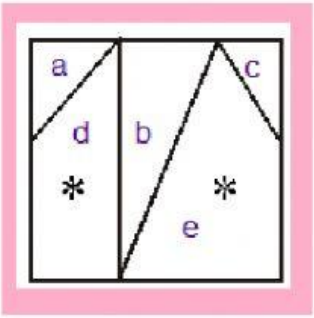

	Desarrolla libremente	total
de 1		
de 2		
de 3		
de 4		
de 5		

6. CONTEO DE FIGURAS CON UN ELEMENTO DENTRO (Desarrolla y completa el cuadro) ¿Cuántos cuadriláteros hay con un corazón dentro?

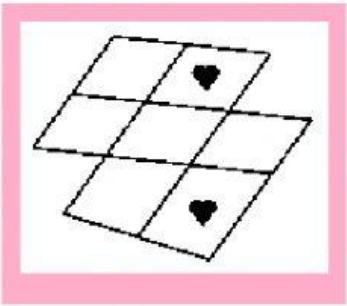

	Desarrolla libremente	total
de 1		
de 2		
de 3		
de 4		

POFESORA: AILY MELISSA GUTARRA BONIFAZ

LIVEWORKSHEETS