اسم المبدعة :.....

التقـــويـم الخـتـــامي

حـوِّط الإجـابة الصحـيحة

١- المعادلة التربيعية التي يعبر عنها التمثيل البياني التالي هي

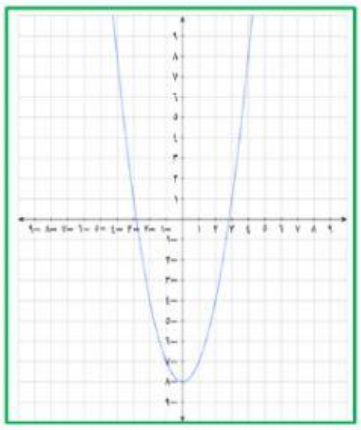

أ) ص= س^{٢} +٨

ب) ص= - س^{٢} +٨

ج) ص= س^{٢} - ٨

د) ص= - س^{٢} - ٨

تابع التقـــويـم الخـتـــامي

٢- المُنحـــنى الذي يُمـــثِّل المُعادلة التربيـــعيَّة ص = س^{٢} + ٣

أ

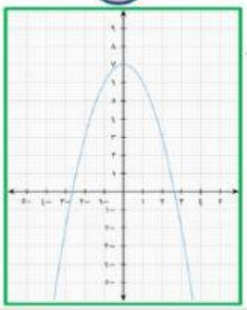

ب

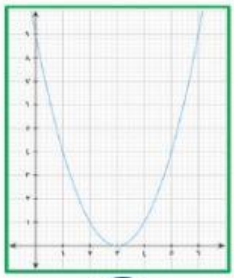

ج

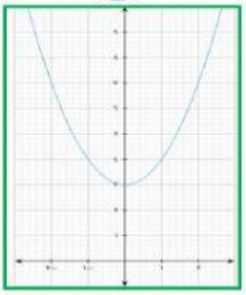

د

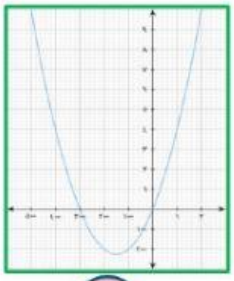

تابع التقـــويـم الخـتـــامي

٣- تقول فاطمة في التمثيل البياني المجاور:

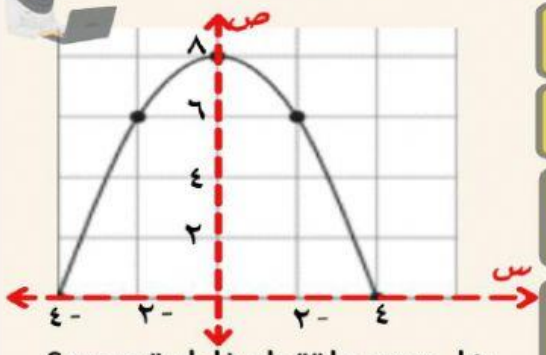

نقطة رأس المنحنى (٠، ٨)

معادلة محور التماثل هي: س= ٠

الجزء المقطوع من المحور الصادي هو: ص=٨

نقاط التقاطع مع محور السينات (٤، ٠) (-٤، ٠)

هل جميع ما تقوله فاطمة صحيح؟

LIVEWORKSHEETS