MISS TEGUALDA ZUBICUETA GAETE
MATEMÁTICA

GUÍA DE APRENDIZAJE
AIM: RECONOCER FIGURAS REFLEJADAS, TRASLADADAS O ROTADAS

I. Marca la alternativa correcta:

1. El movimiento que se observa en la figura es

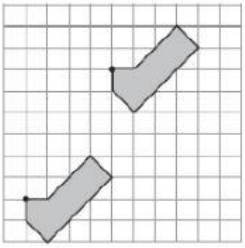

   a) Una reflexión
   b) Una traslación
   c) Un giro
   d) Una traslación y una simetría

2. El movimiento que se observa en la figura es

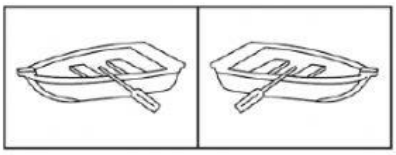

   a) Una reflexión
   b) Una traslación
   c) Un giro
   d) Una traslación y una simetría

3. ¿Cuántos ejes de simetría tiene la figura?

   a) Ningún eje
   b) Un eje
   c) Dos ejes
   d) Tres ejes

4. De la figura podemos decir que:

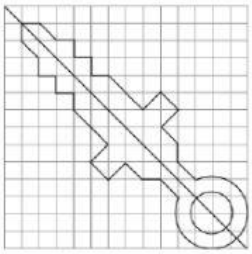

   a) Se efectuó una traslación
   b) Se efectuó una reflexión
   c) Se efectuó un giro
   d) Se efectuó una traslación y una reflexión

LIVEWORKSHEETS

5. De la figura podemos decir que:



a) Se efectuó una traslación
b) Se efectuó una reflexión
c) Se efectuó un giro
d) Se efectuó una traslación y una reflexión

6. ¿Cuántos cuadrados se trasladó la figura?

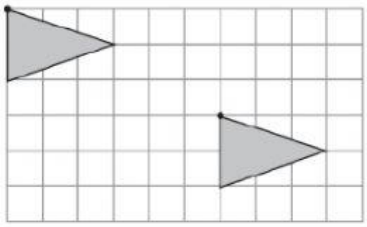

a) 6 a la derecha y 2 hacia abajo
b) 7 a la derecha y 3 hacia abajo
c) 6 a la derecha y 3 hacia abajo
d) 7 a la derecha y 2 hacia abajo

7. De la figura podemos decir que:

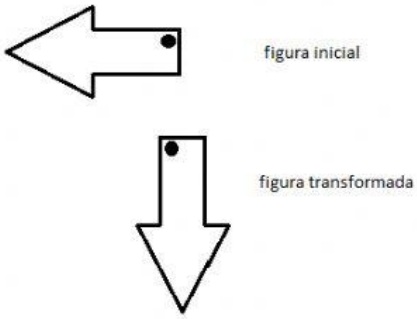

a) Se efectuó una traslación
b) Se efectuó una reflexión
c) Se efectuó un giro
d) Se efectuó una traslación y una reflexión

8. La figura que muestra un cuarto de giro con respecto a la del recuadro es:

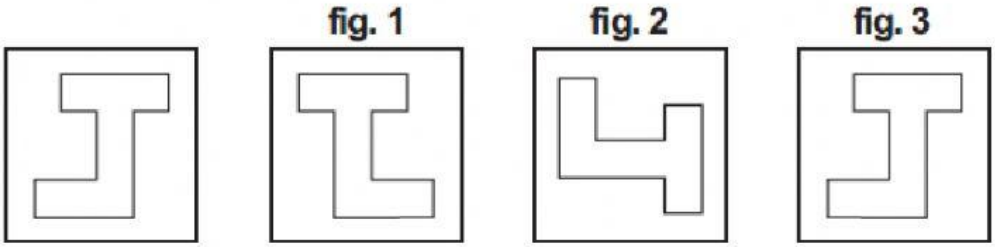

a) Figura 1
b) Figura 2
c) Figura 3
d) No aparece dibujada

LIVEWORKSHEETS