تدريب 3

ما ناتج جمع الممثل في النموذج.

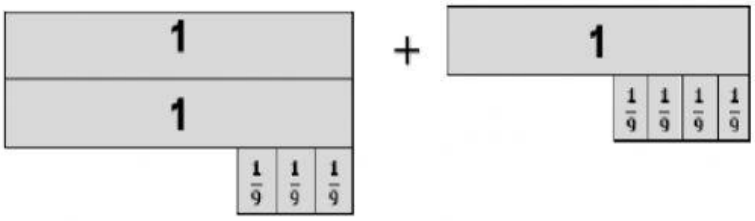

A $2\frac{7}{9}$

B $3\frac{7}{9}$

C $3\frac{4}{9}$

D $4\frac{1}{9}$

LIVEWORKSHEETS

تدريب 5

ما ناتج الضرب $6 \times \frac{1}{2}$ ؟

A 1

B 2

C 3

D 7

LIVEWORKSHEETS

تدريب 6

ما ناتج $7 \div 2$ في صورة كسر؟

A $\frac{2}{7}$

B $\frac{5}{7}$

C $\frac{2}{14}$

D $\frac{2}{20}$

LIVEWORKSHEETS

تدريب 8

ما حجم المُجسم المرسوم أدناه بالوحدات المكعبة؟

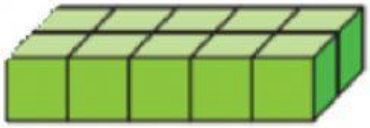

A 4

B 6

C 8

D 10

LIVEWORKSHEETS

تدريب 11

تبلغ المسافة بين سوق واقف و منطقة السد $6\ km$ تقريبا، ما المسافة بين المنطقتين بالمتر؟

A $60\ m$

B $600\ m$

C $6000\ m$

D $60000\ m$

LIVEWORKSHEETS

تدريب 13

ما ناتج $3 \times 2 + 7$ ؟

A 9

B 13

C 16

D 19

LIVEWORKSHEETS

تدريب 14

ما الزوج المرتب الذي تحدده النقطة D في الشبكة أدناه؟

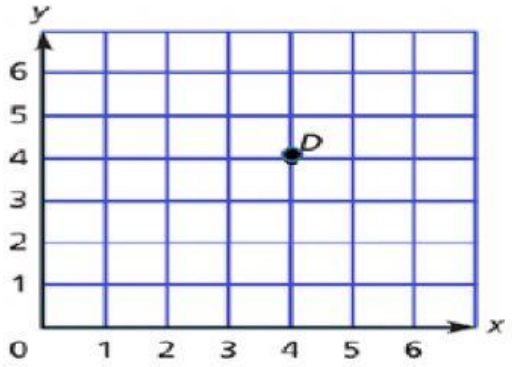

A (4,4)

B (5,0)

C (3,5)

D (6,1)

LIVEWORKSHEETS

تدريب 17

لدى سعيد نبتتان، طول النبتة الأولى $5\ cm$ ، وطول النبتة الثانية $7cm$
تنمو النبتة الأولى بمقدار $2cm$ كل أسبوع، وتنمو النبتة الثانية بمقدار $1cm$ كل أسبوع.
كم سيصبح طول كل من النبتتين بعد 4 أسابيع؟

النبتة الأولى	
الاسبوع	الطول (cm)
البداية	$5\ cm$
1	
2	
3	
4	

النبتة الثانية	
الاسبوع	الطول (cm)
البداية	$7\ cm$
1	
2	
3	
4	

A النبتة الأولى $13cm$ ، النبتة الثانية $8cm$

B النبتة الأولى $13cm$ ، النبتة الثانية $11\ cm$

C النبتة الأولى $8cm$ ، النبتة الثانية $10cm$

D النبتة الأولى $8cm$ ، النبتة الثانية $12cm$

LIVEWORKSHEETS

تدريب 19

أي مما يلي يمثّل مستقيمين متوازيين؟

A



C

B

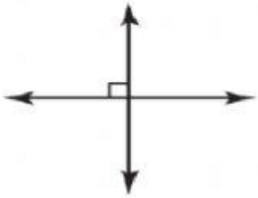

D

LIVEWORKSHEETS