UNIDADES Y DECENAS

Una decena se representa con ● y con ▮

Una unidad se representa con ● y con ■

Escribe el número de las unidades y las decenas en los cuadrados blancos.

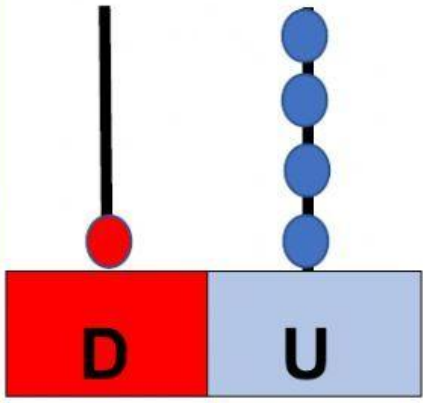

DECENAS	UNIDADES

□ + □ = □

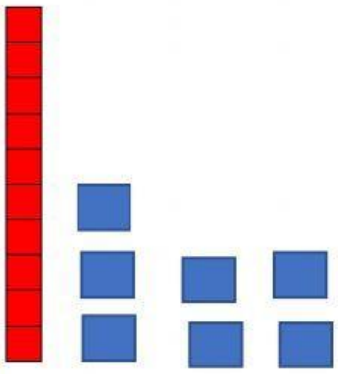

DECENAS	UNIDADES

□ + □ = □

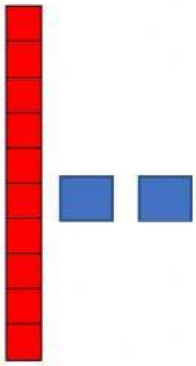

DECENAS	UNIDADES

□ + □ = □

LIVEWORKSHEETS