EL REGNE DE LES PLANTES

Completa la taula de la classificació de les plantes.

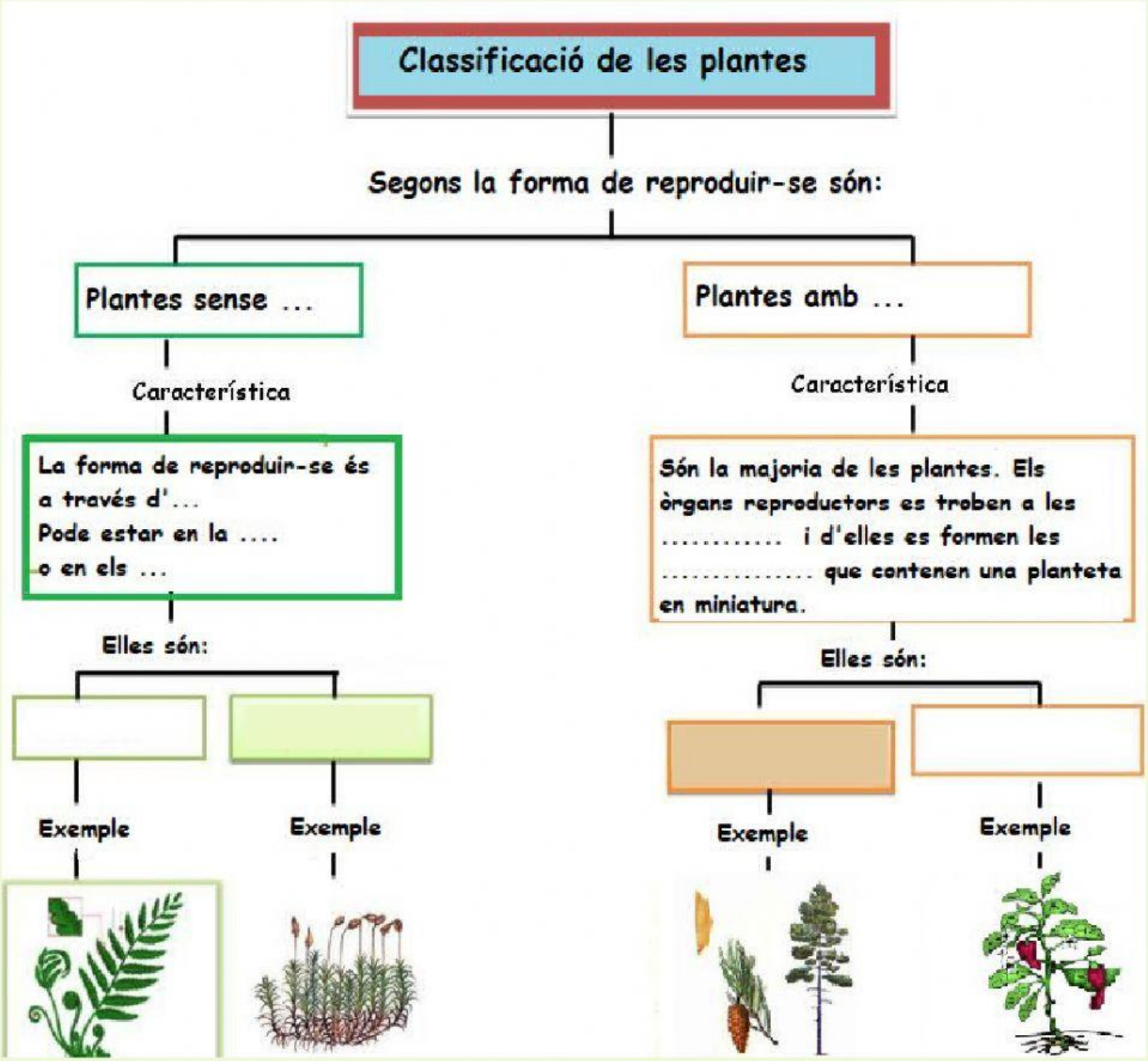

Selecciona del desplegable, el grup de plantes al que fa referència:

- Plantes de reproducció sexual amb flors senzilles i poc vistoses. No produeixen flors, sinó que les llavors estan contingudes en una pinya.
- Plantes de reproducció asexual, molt xicotetes que viuen en llocs molt humits i que se subjecten al sòl per unes falses arrels.

LIVEWORKSHEETS

- Plantes de reproducció sexual amb flors vistoses on, una vegada fecundat l'òvul, es transformen en un fruit que conté les llavors.

- Plantes de reproducció asexual que tenen una tija grossa subterrània anomenada rizoma i fulles grans anomenades frondes.

Explica ordenats com es produeix l'alimentació de les plantes

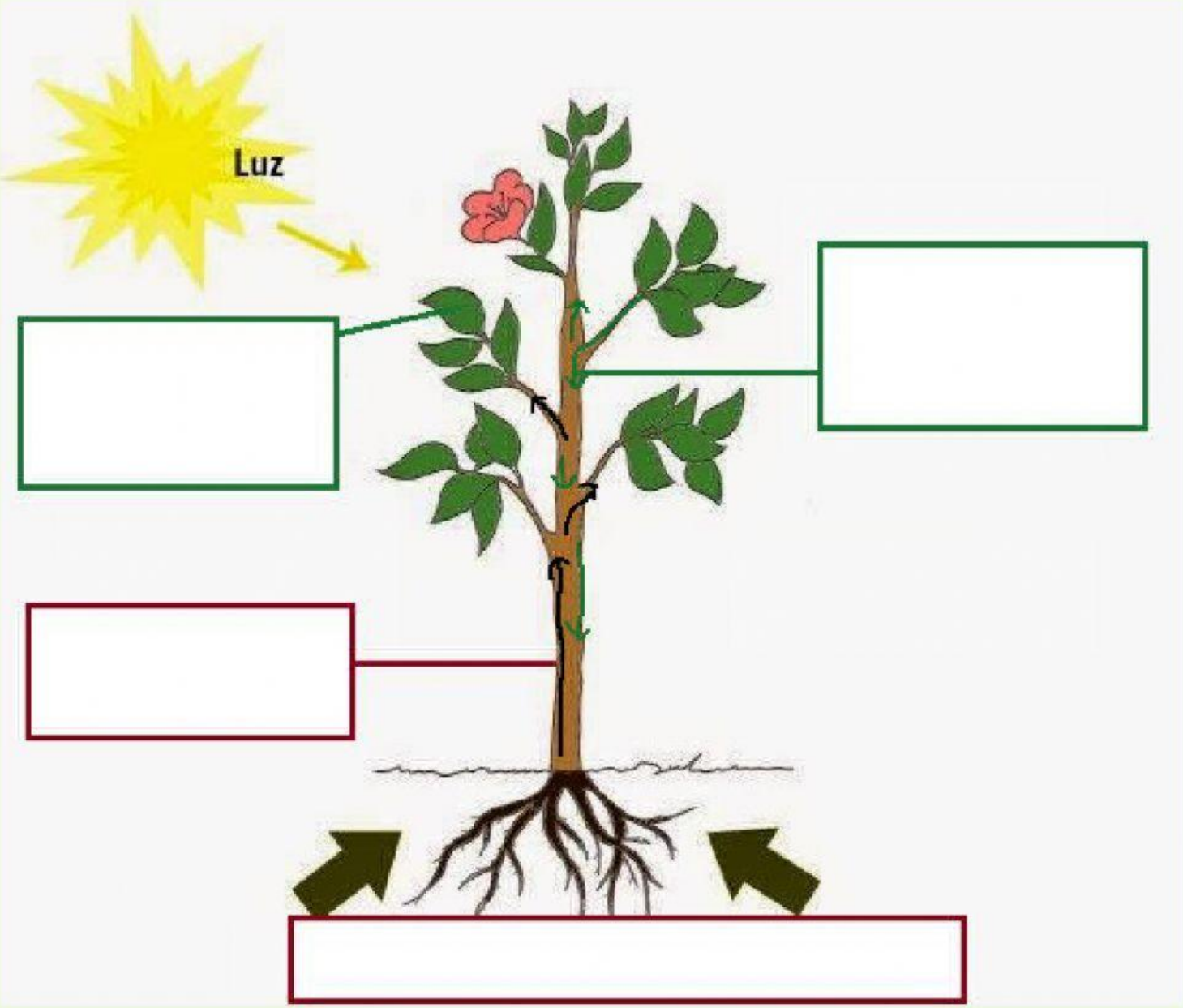

Tria el concepte adequat per a cada explicació:

• Mescla d'aigua i sals minerals que la planta absorveix per les arrels.

LIVEWORKSHEETS

• Vasos que condueixen la saba bruta des de l'arrel fins a les fulles.

• Mescla d'aigua i aliments producte de la fotosíntesi.

• Vasos que condueixen la saba elaborada des de les fulles a tota la planta.

• Procés pelqual les plantes transformen la saba bruta en saba elaborada.

Completa el quadre sobre la reproducció de les plantes triant del desplegable.



LIVEWORKSHEETS