Números hasta 1000

Completa el cuadro:

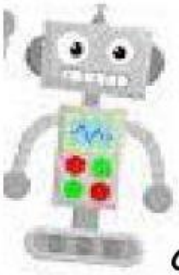

Centena anterior	Número	Centena posterior	Aproximación
	348		
	405		
	682		
	710		



Completa el cuadro:

Decena anterior	Número	Decena posterior	Aproximación
	572		
	638		
	455		
	561		

3.-Arrastra el signo >; < ; = según corresponda:



507 _____ 570 > < =

220 _____ 1C 4D 3U

160 _____ 60 + 40 +30 < = >

9D 8U 3C _____ 8U 4C 9D

789 _____ 879 = < >

325 _____3C 1D 15 U

LIVEWORKSHEETS