Escola Municipal Professora Vera Lúcia Gama Moura

Nome: _____

Ano/turma:_____ Data: ____/____/____ Professora: Jullyanna

Atividade de Matemática

Olá alunos! Hoje vocês vão aprender como fazer multiplicação usando uma malha quadriculada. Assista ao vídeo abaixo e bons estudos.

Agora que você viu como se faz para multiplicar em uma malha quadriculada, vamos dar início a nossa atividade.

Determine a multiplicação e o resultado dela observando as malhas quadriculadas a seguir de acordo com o exemplo abaixo.



A multiplicação da parte verde é 3 X 3 = 9

A multiplicação da parte azul é 5 x 5 = 25

A multiplicação da parte marrom é 3 x 2 = 6

Agora que você viu o exemplo é hora de colocar a mão na massa e responder!

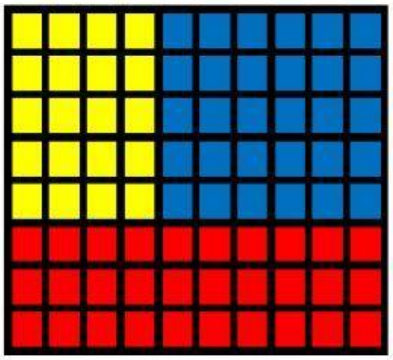

A multiplicação da parte amarela é

A multiplicação da parte verde é

A multiplicação da parte verde é

LIVEWORKSHEETS

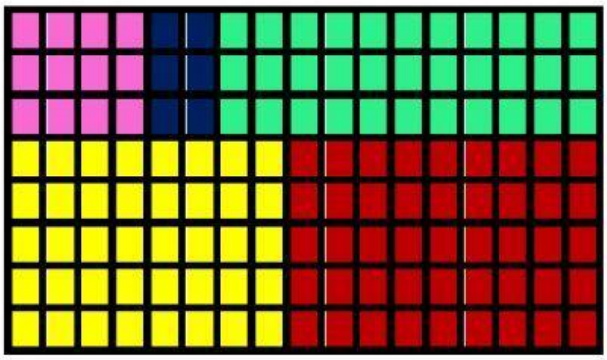

A multiplicação da parte rosa é

A multiplicação da parte azul é

A multiplicação da parte amarela é

A multiplicação da parte vermelha é

A multiplicação da parte verde é



A multiplicação da parte azul é

A multiplicação da parte verde é

A multiplicação da parte rosa é

ATIVIDADE

Para calcular quantos ladrilhos foram usados em algumas paredes representadas pelos desenhos abaixo, Beatriz fez os seguintes cálculos:

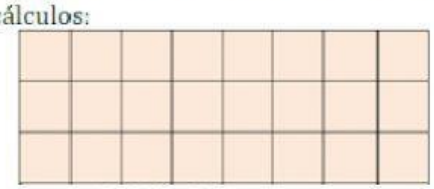

8 X 3 = 24

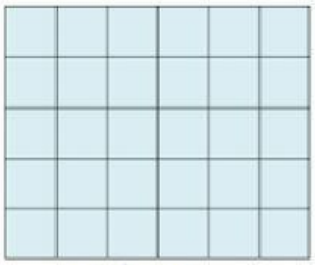

6 x 5 = 30

Calcule o número de ladrilhos em cada parede desenhada abaixo:



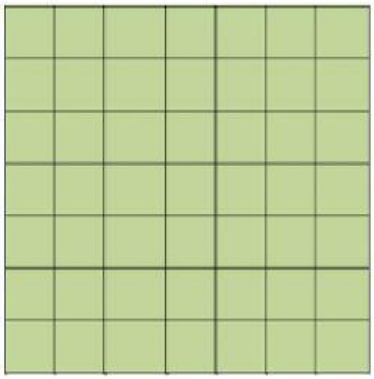



LIVEWORKSHEETS