Algunos objetos de la tómbola tienen forma de polígono.
Señálalos.

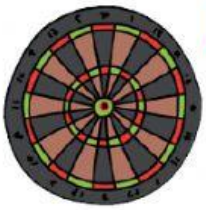

En la tómbola hay un juego que contiene piezas diferentes.
Escribe el nombre de cada pieza y el número de lados y vértices.

Lados:

Vértices:

Lados:

Vértices:

Lados:

Vértices:



Lados:

Vértices:

Lados:

Vértices:



Lados:

Vértices:

LIVEWORKSHEETS

Para conseguir la canasta, Carla necesita 428 puntos.
Si tiene 215, ¿cuántos puntos le faltan?

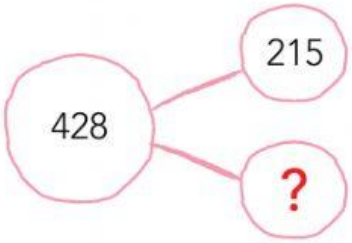

Necesita ____ puntos.

Tiene ____ puntos.

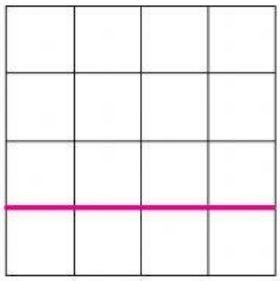

Le faltan ____ puntos.

Para conseguir el juego de bolos, Sergio necesita 312 puntos.
Si tiene 107, ¿cuántos puntos le faltan?

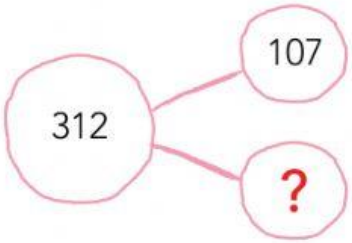

Necesita ____ puntos.

Tiene ____ puntos.

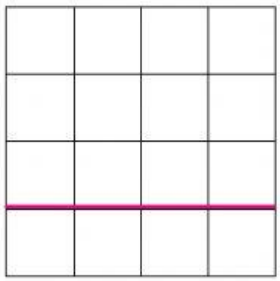

Le faltan ____ puntos.

Para conseguir los patines, Sara necesita 630 puntos.
Si tiene 452, ¿cuántos puntos le faltan?

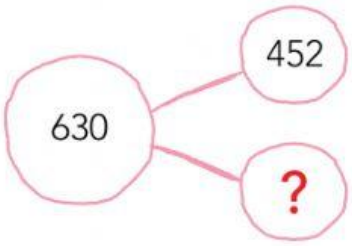

Necesita ____ puntos.

Tiene ____ puntos.

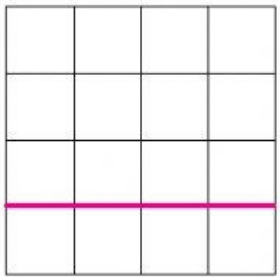

Le faltan ____ puntos.

LIVEWORKSHEETS