SOAL EVALUASI

KELAS : V (LIMA)
SEMESTER : 2
TEMA 8 : LINGKUNGAN SAHABAT KITA
SUBTEMA 1 : MANUSIA DAN LINGKUNGANNYA
MUATAN PELAJARAN : IPA
MATERI : SIKLUS AIR

NAMA : .....

Jawablah pertanyaan di bawah ini dengan benar!

1. Perhatikan gambar di bawah ini

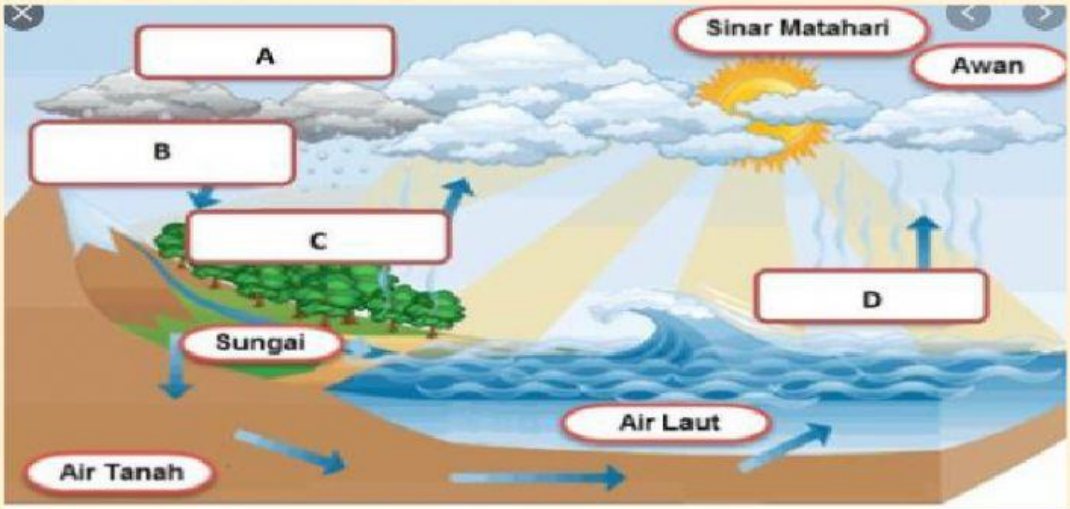

Dari gambar, proses kondensasi ditunjukan oleh huruf.....

a. A
b. B
c. C
d. D

LIVEWORKSHEETS

2. Amati gambar berikut

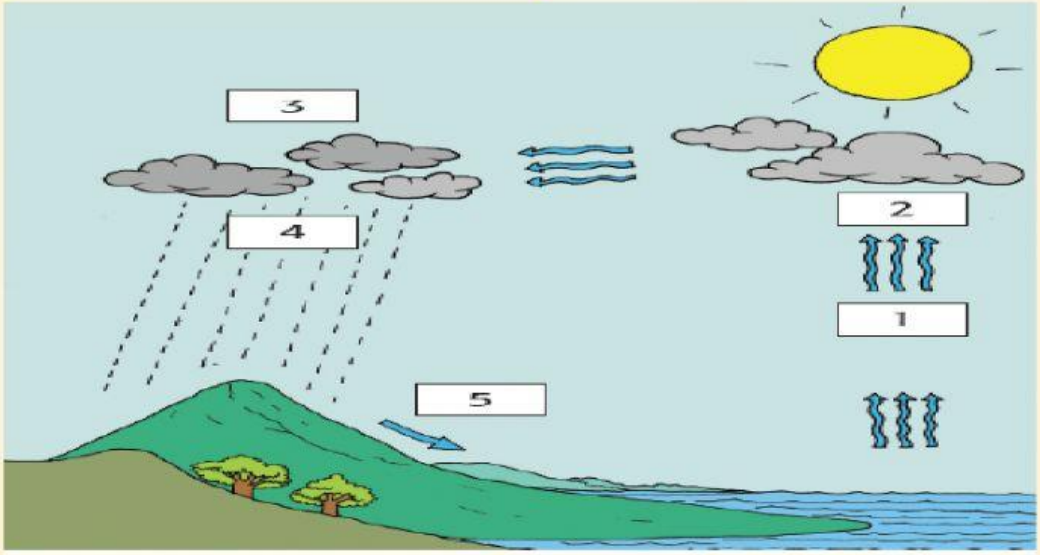

Proses siklus air pada urutan nomor 1 dan 4 yang ditunjukan oleh gambar adalah ...

	1	4
a.	penguapan yang ada di permukaan bumi	perubahan uap menjadi awan
b.	penguapan dari air laut	jatuhnya titik-titik air menjadi hujan
c.	perubahan uap air menjadi butiran air	perubahan uap air menjadi hujan
d.	Jatuhnya titik-titik hujan	peresapan air hujan oleh tanah

LIVEWORKSHEETS

3. Bacalah teks berikut!
   Mengapa air selalu tersedia di bumi? Air selalu tersedia di bumi karena mengalami siklus. Siklus air merupakan perputaran air secara terus menerus dari bumi ke atmosfer, lalu kembali ke bumi. Siklus air terjadi melalui proses evaporasi dan transpirasi, kondensasi, presipitasi,dan infiltrasi.

Berdasarkan teks di atas, lengkapi tahapan siklus air pada bagan sederhana di bawah ini!

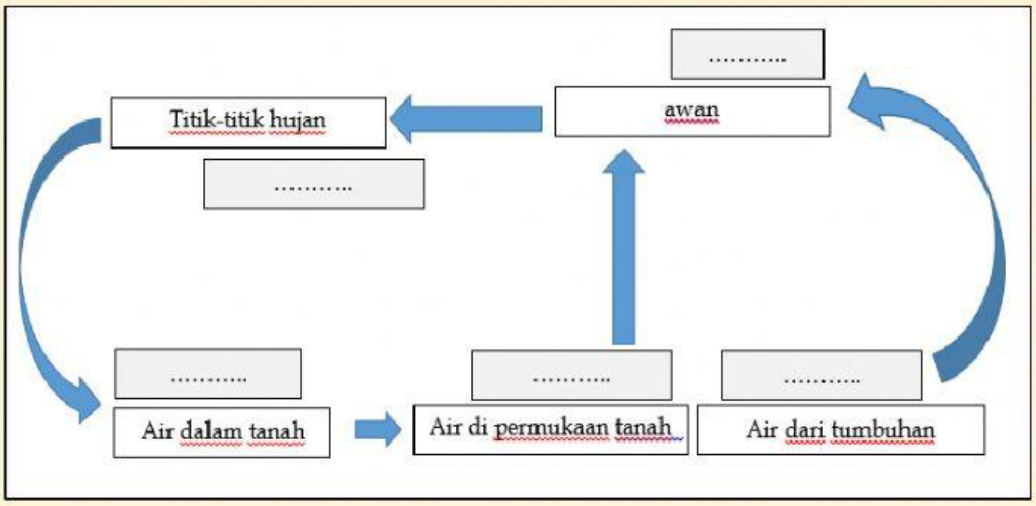

presipitasi

kondensasi

evaporasi

infiltrasi

transpirasi

4. Amati gambar di samping!
   Peristiwa siklus air merupakan peristiwa sehari-hari yang sering tidak disadari oleh manusia. Siklus air menghasilkan air bersih yang bergua bagi kelangsungan makhluk hidup. Tuliskan fungsi air bagi dalam bentuk peta pikiran seperti berikut!

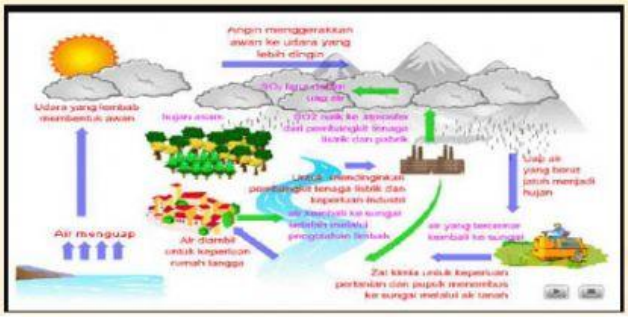

LIVEWORKSHEETS