Учитель: Лепська В.М. Фізика-10 Газові закони

1.З'єднайте стрілками назви величин та умовні позначення

Універсальна газова стала	υ
Об'єм	p
Маса	M
Кількість речовини	V
Молярна маса	m
Тиск	R

2. Запишіть назви сталих величин за їх чисельним значенням

8,31 Дж/моль*К

$1,38*10^{-23}$ Дж/К

$6,02*10^{23}$ $моль^{-1}$

3.Яка величина відповідає одиниці вимірювання

LIVEWORKSHEETS

	Па
	$м^3$
	моль
	кг
	кг/моль
	Дж/моль*К

4.Підпишіть назви процесів, які відповідають назвам законів

Закон Бойля-Маріотта

Закон Гей-Люссака

Закон Шарля

5.З'єднайте стрілками назви законів та графіки процесів, які їм відповідають

Закон Бойля-Маріотта

Закон Гей-Люссака

Закон Шарля

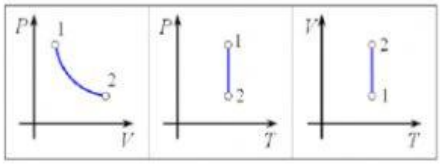

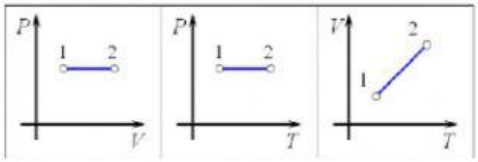

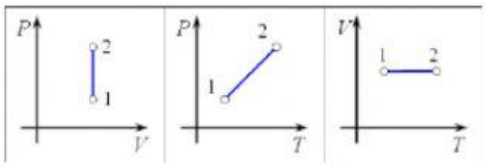

LIVEWORKSHEETS