مراجعة الوحدة 7 : تنظيم التمثيلات البيانية و استخدامها

❖ اختر الأجابة الصحيحة :

1 – ـــــــــــ يستخدم الصور في عرض البيانات ؟

c)

جدول العلامات

b)

التمثيل البياني بالأعمدة

a)

التمثيل البياني بالصور

2 – استخدم التمثيل البياني : ما إجمالي عدد الطلبة الذي شاركوا في استطلاع الرأي؟

A) 10

B)12

C) 14

3 – استخدم التمثيل البياني : أي نشاط يزيد عن اللعب بصوتين ؟

A) اللعب

B) قراءة الكتب

C) الرسم

LIVEWORKSHEETS

4 – استخدم التمثيل البياني : أي نشاط يقل عن اللعب بصوت واحد ؟

A) اللعب

B) قراءة الكتب

C) الرسم

5 – أختر التمثيل البياني الذي يظهر ان اللون الأزرق هو الأكثر تفضيلا؟

a)

b)

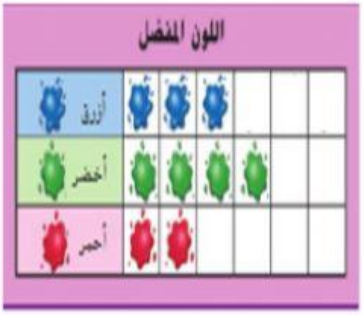

c)

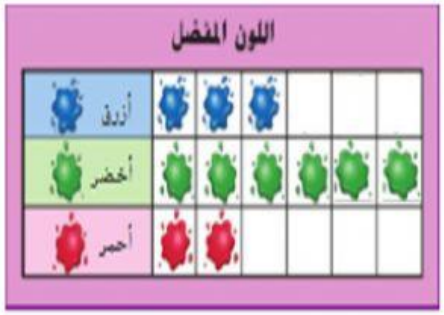

6– تعد هناء عدد الموز التي يأكلها كل من والداها في اليوم الواحد . بكم يزيد عدد الموز الذي يأكله الاب عن الأم ؟

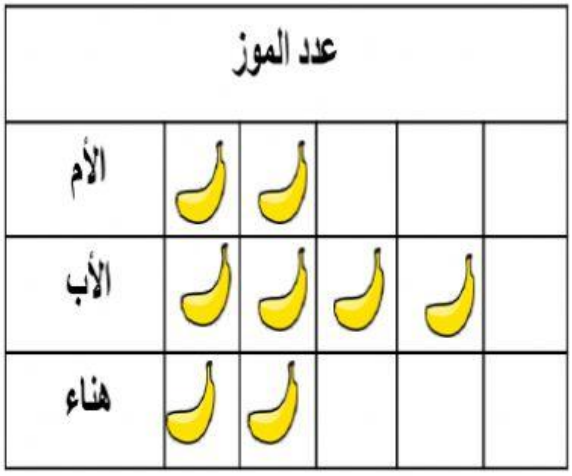

A) 2

B) 4

C) 6

LIVEWORKSHEETS

7– جمعت شيماء 16 زهرة من الحقل . وجمع سلطان 9 زهور . فكم يزيد عدد الأزهار التي جمعتها شيماء عن سلطان ؟

A)16 + 9 = 25

B) 16 – 9 = 7

C) 16– 8 = 8

– – استخدم التمثيل البياني بالصور للإجابة على الأسئلة ؟

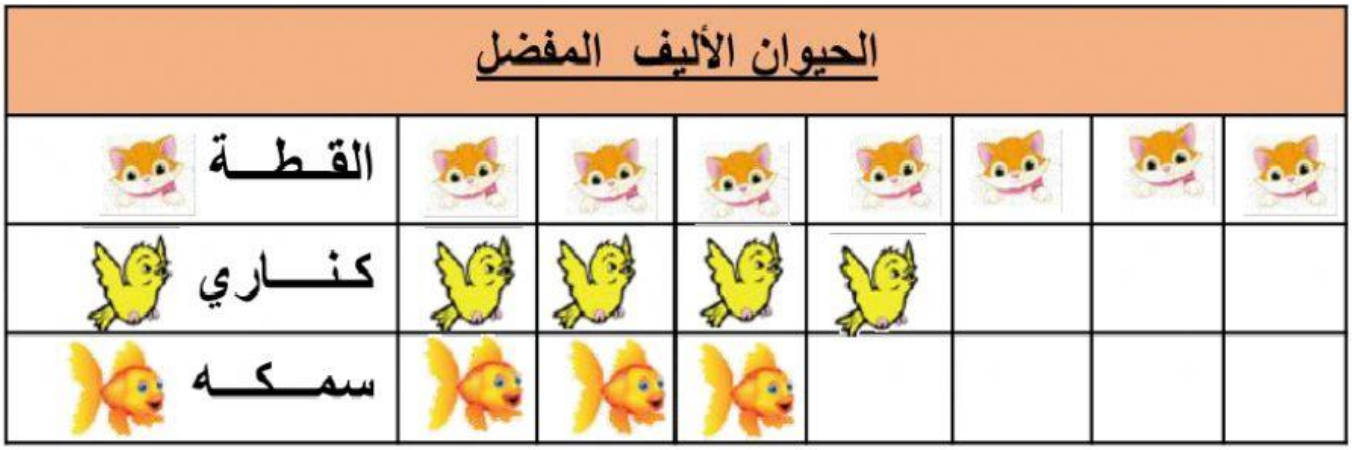

8 – كم شخصاً أختار القطة؟

A) 7

B) 4

C) 3

9 – كم شخصاً أختار الكناري ؟

A) 7

B) 4

C) 3

10 – ما الحيوان الأليف الذي حصل على 4 أصوات ؟

A) القطة

B) سمكه

C) كناري

LIVEWORKSHEETS

– استخدم التمثيل البياني بالصور للإجابة على الأسئلة ؟

الحيوان الأليف المفضل							
القطة							
كناري							
سمكه							

11 – هل عدد من يحبون الكناري أكثر أم من يحبون السمك ؟

A) سمكه

B) كناري

12 – أي حيوان أليف حصل على عدد أصوات أقل من الكناري؟

A) سمكه

B) القطة

13 – أي حيوان أليف حصل على عدد أصوات أكثر من الكناري؟

A) القطة

B) سمكه

14 – كم شخصاً أختار الكناري و القطة ؟

A) 7

B) 4

C) 11

15 – كم يزيد عدد من اختاروا القطة عمن اختاروا السمك ؟

A) 3

B) 4

C) 2

LIVEWORKSHEETS

– استخدم **التمثيل البياني بالصور** للإجابة على الأسئلة ؟

16 – كم ينقص عدد من اختاروا الكناري عمن اختاروا القطة ؟

A) 3

B) 4

C) 2

17 – كم شخص شارك في استطلاع الرأي ؟

A) 18

B) 16

C) 14

– استخدم **التمثيل البياني بالأعمدة** للإجابة على الأسئلة :

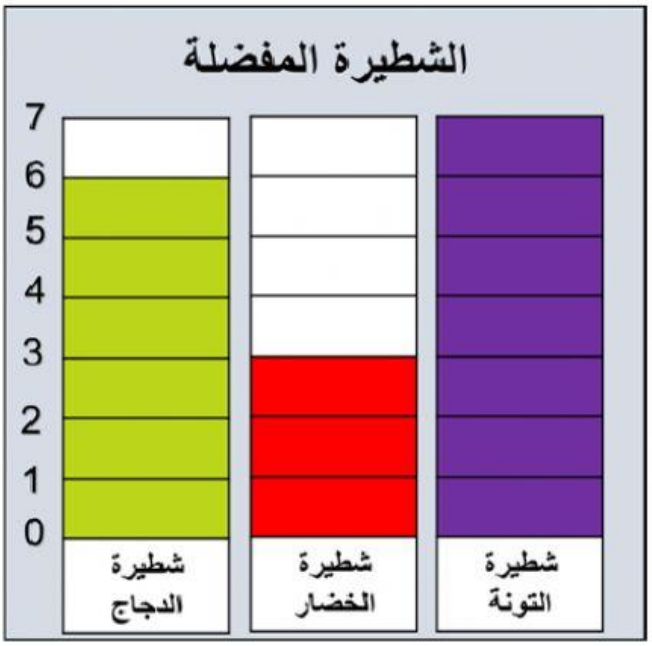

18 – كم شخصا اختار شطيرة الدجاج ؟

A) 6

B) 9

C) 7

LIVEWORKSHEETS

– استخدم **التمثيل البياني بالأعمدة** للإجابة على الأسئلة :

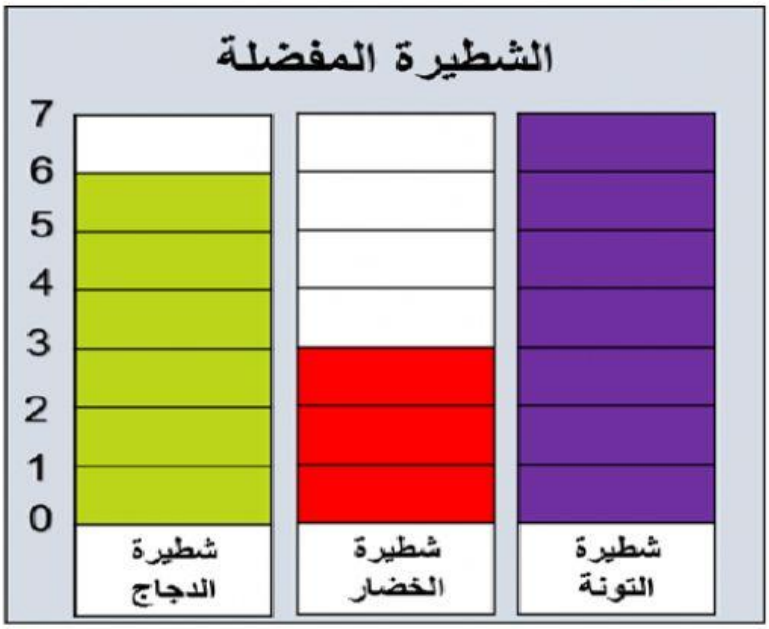

20 – كم شخصا اختار شطيرة الخضار ؟

A) 6 | B) 3 | C) 7

21 – كم شخصا اختار شطيرة التونة ؟

A) 6 | B) 3 | C) 7

22 – كم يزيد عدد من اختاروا شطيرة التونة عن من اختاروا شطيرة الخضار؟

A) 10 | B) 6 | C) 4

LIVEWORKSHEETS

– استخدم التمثيل البياني بالأعمدة للإجابة على الأسئلة :

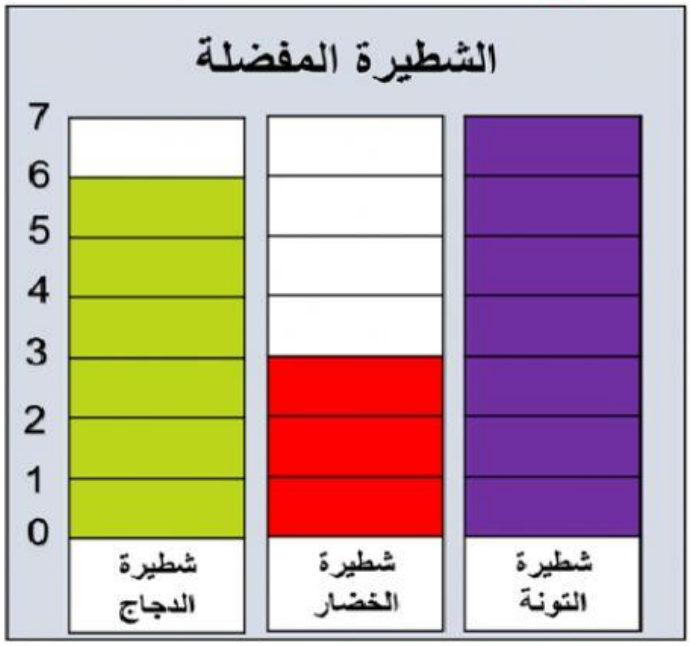

23 – كم صوتاً ذهب لشطيرة التونة أكثر من شطيرة الدجاج ؟

A) 1 | B) 3 | C) 4

24 – ما نوع الشطيرة الأكثر تفضيلاً من الدجاج ؟

A) شطيرة الخضار | B) شطيرة التونة | C) شطيرة الجبن

25 – ما الشطيرة التي حصلت على عدد أقل من الأصوات ؟

A) شطيرة الخضار | B) شطيرة التونة | C) شطيرة الجبن

26 – كم شخصاً شارك في استطلاع الرأي ؟

A) 16 | B)15 | C) 10

LIVEWORKSHEETS