SKAIČIŲ TIESĖ

VARDAS: _____

UŽBAIK SAKINĮ:

1. Raudonas taškas atitinka skaičių _____

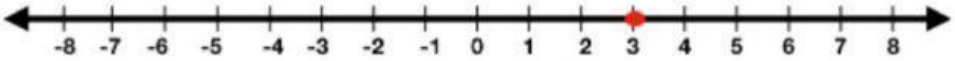

2. Pasirink raidę, kuri atitinka skaičių +7 _____

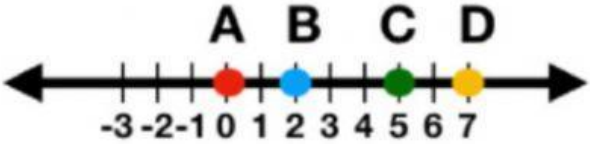

3. Kurios iš skaičių tiesėje esančių raidžių atitinka neigiamus sveikuosius skaičius?

_____

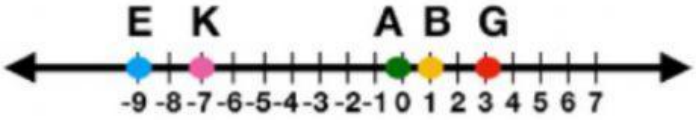

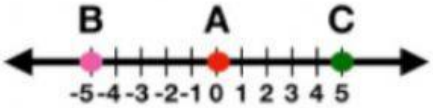

4. RAIDĖ atitinka -5.
   Raidė atitnka +5.
   Raidė atitinka 0.

Parašykite kelis skaičius, skaičių tiesėje esančius tarp:
a) 0 ir 5; b) −5 ir 0; c) −3 ir 3; d) −2 ir −1.

LIVEWORKSHEETS