NOME _____ DATA: 26/04/2021

LÍNGUA PORTUGUESA

ESCREVA OS NOMES DOS ANIMAIS, NOS ESPAÇOS ABAIXO DE CADA UM.

LIVEWORKSHEETS

VOCÊ ACHA QUE UM RATINHO É CAPAZ DE AJUDAR UM LEÃO GRANDE E FORTE? COMO? CLIQUE NO LINK ABAIXO E VEJA A HISTÓRIA ANTES DE RESPONDER AS QUESTÕES.

AGORA RESPONDA:

ESCREVA O NOME DOS PERSONAGENS DA FÁBULA.

ONDE A HISTÓRIA ACONTECE?

O QUE VOCÊ ACHOU DA ATITUDE DO LEÃO AO DECIDIR NÃO ESMAGAR O RATINHO?

E VOCÊ, COSTUMA AJUDAR AS PESSOAS QUANDO ELAS PRECISAM? VOCÊ ACHA QUE AS PESSOAS COSTUMAM AJUDAR APENAS QUEM PODE AJUDÁ-LAS DE VOLTA? SE SIM, O QUE ACHA DISSO?

LOCALIZE NO TEXTO AS PALAVRAS USADAS PARA NOMEAR O LEÃO.

ESSE TEXTO CONTA UMA HISTÓRIA:

☐ REAL. ☐ IMAGINÁRIA.

LIVEWORKSHEETS

NUMERE AS CENAS NA ORDEM EM QUE ACONTECERAM NA HISTÓRIA.

"SEUS URROS DE RAIVA FIZERAM A TERRA TREMER. AO OUVI-LOS, O RATINHO VEIO EM SEU SOCORRO."

"DIANTE DE TAMANHA INSISTÊNCIA, O LEÃO, QUE ESTAVA MESMO COM O ESTÔMAGO CHEIO, DEIXOU QUE O RATINHO SE FOSSE."

"— POR FAVOR, POR FAVOR, POR FAVOR, NÃO ME ESMAGUE! — INSISTIU O RATINHO."

"QUANDO FALTAVA APENAS UM RATO PASSAR, O LEÃO ACORDOU E PRENDEU-O DEBAIXO DE SUA PATA."

"ALGUNS DIAS DEPOIS, O LEÃO FICOU PRESO NUMA REDE DEIXADA NA FLORESTA POR ALGUNS CAÇADORES."

"COM SEUS DENTES PEQUENINOS E AFIADOS, ROEU AS CORDAS DA REDE E SOLTOU O LEÃO."

LIVEWORKSHEETS

MATEMÁTICA

MARIA E 4 AMIGOS FIZERAM UMA FILEIRA. OBSERVE A CENA E RESPONDA ÀS QUESTÕES A SEGUIR.



A) QUEM ESTÁ **ENTRE** PAULA E RAFAEL? _____

B) MARIA ESTÁ **À DIREITA** DE RAFAEL. QUEM ESTÁ **À ESQUERDA** DE RAFAEL? _____

C) QUEM ESTÁ **À DIREITA** DE PAULA? _____

D) COMO PODEMOS FAZER PARA QUE FÁBIO FIQUE **ENTRE** DUAS CRIANÇAS SEM QUE ELE SOLTE A MÃO DE RAFAEL? ESCREVA UMA SOLUÇÃO.

LIVEWORKSHEETS

SÓLIDOS GEOMÉTRICOS

O QUARTO DE JOÃO É BEM ORGANIZADO. VEJA QUANTOS OBJETOS HÁ NELE.



1 OBSERVE OS SÓLIDOS GEOMÉTRICOS REPRESENTADOS A SEGUIR. DEPOIS, ESCREVA O NOME DE OBJETOS DA CENA ACIMA QUE TÊM FORMA PARECIDA COM CADA UM DELES.

A) 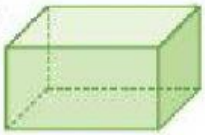

BLOCO RETANGULAR

C)

ESFERA

B) 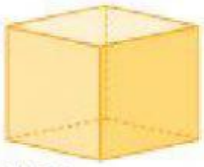

CUBO

D)

CILINDRO

EM SUA SALA DE AULA HÁ OBJETOS COM FORMA PARECIDA COM A DOS SÓLIDOS GEOMÉTRICOS DA ATIVIDADE 1? QUAIS SÃO?

VEJA AO LADO OS MODELOS DE SÓLIDOS GEOMÉTRICOS QUE CAROL FEZ.

QUAL É O NOME DOS SÓLIDOS GEOMÉTRICOS DESSES MODELOS?

LIVEWORKSHEETS