الهدف	تغير سطح الأرض بفعل حركة الصفائح	
اسم الطالبة - الصف		السابع /

1	أي مما يلي لا يُعد أحد أنواع حدود الصفائح ؟ A. الحد المتقارب. B. الحد المتباعد. C. نطاق الاندساس. D. الحد الانتقالي.	A B C D
2	تنزلق صفائح الأرض المتحركة أفقياً بعضها بمحاذاة بعض عند : A. الحدود المتقاربة. B. الحدود المتباعدة. C. الحدود الانتقالية. D. حيود وسط المحيط.	A B C D
3	إلامَ يرمز الشكل المجاور ؟  A. تصادم صفيحتين محيطيتين. B. تصادم صفيحتين قاريتين. C. اندساس صفيحة محيطية أسفل صفيحة قارية. D. تكون وادي متصدع نتيجة تصادم الصفيحتين.	A B C D
4	القوة الناتجة عند تحرك صفيحتين مبتعدة الواحدة عن الأخرى هي : 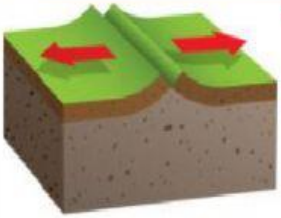 A. الانضغاط. B. الاندساس. C. القص. D. الشد.	A B C D
5	ما هي الخاصية التي تم تميزها بالعلامة x في الشكل المجاور؟  A. نطاق الاندساس. B. حيد وسط المحيط. C. الانجراف القاري. D. الصدع الانتقالي.	A B C D
6	ما هو السبب وراء حركة الصفائح التكتونية ؟ A. حركة الرياح عبر الكرة الأرضية . B. حركة أمواج المحيط في البحار و المحيطات. C. تيارات الحمل التي تحدث في الوشاح . D. حركة الكائنات الحية على سطح الأرض.	A B C D

LIVEWORKSHEETS