COLEGIO JUAN LOZANO Y LOZANO I.E.D.

ESTRATEGIA "A APRENDER EN CASA"
EVALUACIONES PRIMER TRIMESTRE

CURSO: SEGUNDO. **SEMANA 12:** 26 al 30 de abril
MATERIA: MATEMÁTICAS **Nombre:**_____

1. Grafica un conjunto que contenga 8 elementos, escribe su característica y luego escríbelo entre llaves.

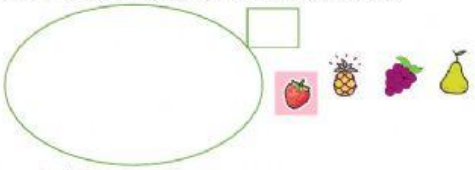

Característica: _____
___={ _____}

2. Observa los conjuntos y luego halla la unión entre ellos.
V = {a, e, i, o, u}
L = {b, d, f, k, t, h}
B = {g, j, q, p.}

V U L U B= {_____}

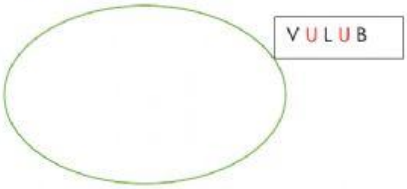

COLEGIO JUAN LOZANO Y LOZANO I.E.D.

3. Escribe el número que se indica

Veintitrés _____ ciento treinta y dos_____ cuarenta _____
Doscientos ocho_____ trescientos catorce_____ noventa_____
Cuatrocientos setenta y dos____ quinientos veintinueve _____
Setecientos setenta y seis_____ seiscientos setenta y nueve____
Ochocientos uno_____ novecientos diez_____ ciento dos_____.

4. Escribe en letras los siguientes números

234_____ 108_____
897_____ 879_____
508_____ 907_____
139_____ 546_____
342_____ 902_____

5. Escribe el signo mayor que > o menor que < según corresponda, no olvides que se compara la primera columna de números respecto a la segunda columna. Se sugiere que los estudiantes hagan la lectura de cada número

234_____784	546____678	894_____653
167_____123	340____120	567____980
673_____987	345____802	670____108
108_____106	709____508	408____713

LIVEWORKSHEETS

6. Soluciona los siguientes problemas

Juan tiene $ 345 y su mamá le regala $ 398 ¿Cuánto dinero tiene Juan en total?

Análisis	Operación	Respuesta

Lucía tiene 567 plantas en su huerto y siembra 298 más ¿Cuántas plantas tiene Lucía en total?

Análisis	Operación	Respuesta

7. Lee y soluciona

Pedro tenía $ 945, compró un helado y gastó $ 498 ¿Cuánto dinero le quedó a Pedro?

Análisis	Operación	Respuesta

COLEGIO JUAN LOZANO Y LOZANO I.E.D.

En el supermercado había 800 huevos en la mañana, pero durante el día se vendieron 578 huevos ¿Cuántos huevos quedaron en el supermercado?

Análisis	Operación	Respuesta

8. Arrastra el nombre encima de la imagen correspondiente

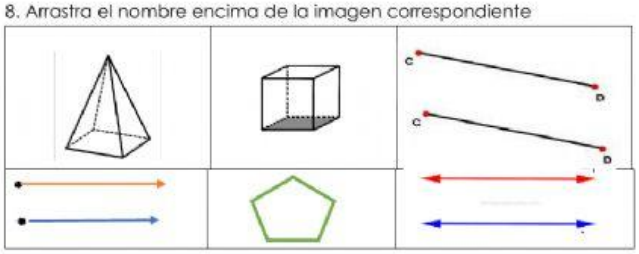

DOS SEMIRRECTAS

POLÍGONO

DOS SEGMENTOS DE RECTA

DOS RECTAS PARALELAS

PIRÁMIDE

CUBO

LIVEWORKSHEETS