POLÍGONOS

Elementos y su clasificación

1.- Escribe el nombre de los elementos de los polígonos donde corresponda. (Empieza por mayúscula y cuidado con las tildes).

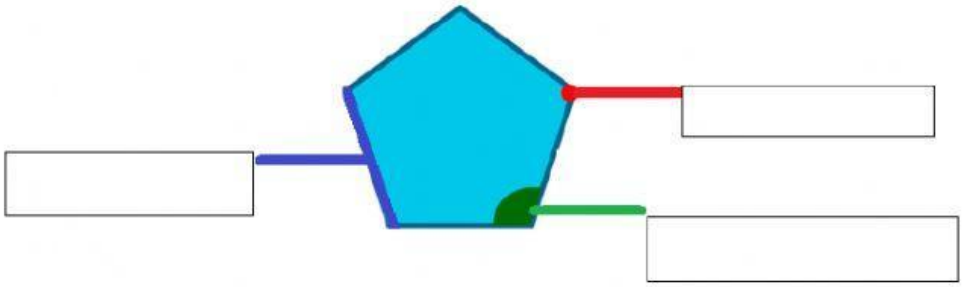

2.- Completa la tabla. (El nombre escríbelo empezando con mayúsculas lo demás lo puedes contestar con una cifra)

NOMBRE	NÚMERO DE LADOS	FIGURA	NÚMERO DE VÉRTICES	NÚMERO DE ÁNGULOS
		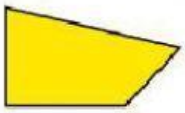		
		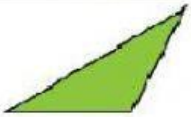		
				
				
				

CC BY NC SA

LIVEWORKSHEETS