Tudáspróba

1. Az oszlopdiagram egy iskola 5. osztályának dolgozat eredményeit tartalmazza. Válaszolj a kérdésekre!

a) Hányan írtak ötös dolgozatot? .....

b) Melyik osztályzatból van a legtöbb? .....

c) Hányan írtak dolgozatot? .....

d) Mennyi a dolgozatjegyek átlaga? .....

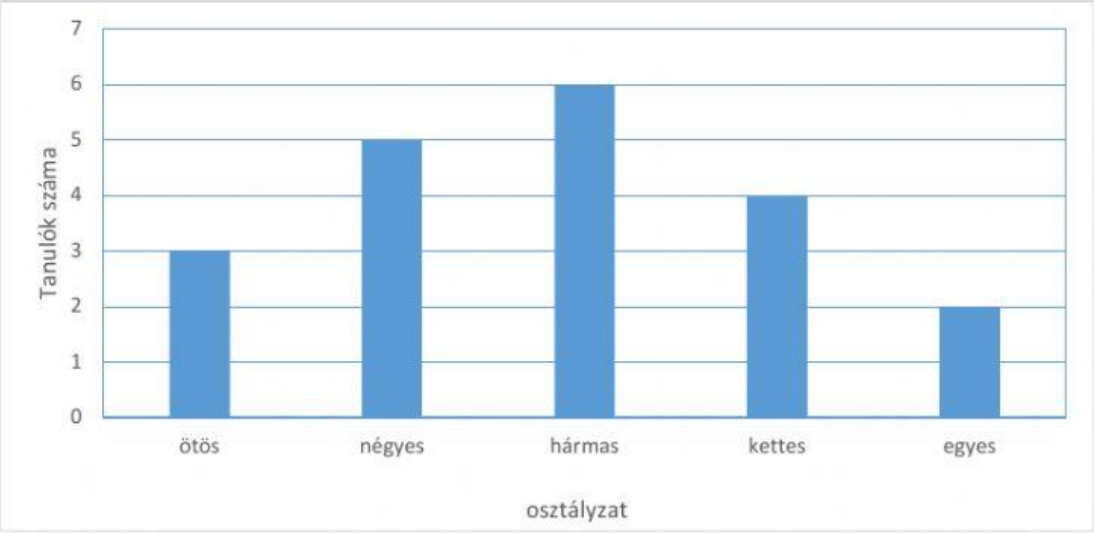

2. Töltsd ki a táblázatot az adott szabály alapján!

$y = 2 \cdot x + 1,5$

x	0	1	3	5	8	10
y						

3. Folytasd a sorozatokat!

a) 3,1 4,2 5,3 ....

b) 3,1 6,2 12,4 ....

4. Két méter kábel ára 600 Ft. Mennyibe kerül 10 m kábel?

10 m kábel ára ..... Ft

5. András 3 kg körtét vásárolt összesen 750 Ft-ért. Mennyit fizetett az a vevő, aki 1,5 kg körtét vásárolt?

1,5 kg körte ára ..... Ft

LIVEWORKSHEETS

6. Gondoltam egy számot, megszoroztam 10-zel, a szorzatból elvettem 5-öt. Így 25-öt kaptam. Melyik számra gondoltam?

A gondolt szám: .....

7. Mely számok teszik igazzá a nyitott mondatokat?

a) ⌂ · 3 = 63 ⌂ = ...

b) 150 + ◊ = 394 ◊ = ...

c) 420 : ○ = 6 ○ = ...

d) Δ – 475 = 525 Δ = ...

8. Kösd össze, melyik egyenlőtlenséghez melyik számegyenes tartozik?

$1 \leq x < 6$

$1 \leq x \leq 6$

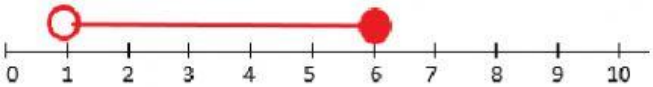

$x \leq 6$

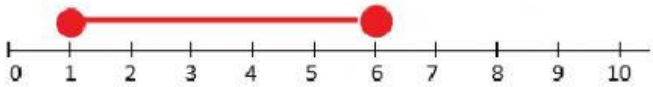

$1 < x < 6$

$6 > x$

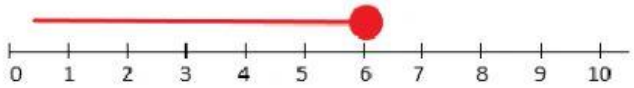

$1 < x \leq 6$

LIVEWORKSHEETS