NOME :

D8 **Questão 1**

Wagner construiu sua casa em 90 dias.
Este período corresponde a
(A) 3 meses
(B) 9 meses
(C) 10 meses
(D) 18 meses.

D17 **Questão 2**

José fez a subtração a seguir: 450 – 350.
O resultado encontrado por José foi
(A) 130
(B) 120
(C) 110
(D) 100

D15 **Questão 3**

Observe o número 1432.
Ele é constituído por
(A) Uma unidade de milhar, quatro centenas, três unidades e duas dezenas.
(B) Uma centena, quatro unidades de milhar, três dezenas e duas unidades.
(C) Uma unidade de milhar, quatro centenas, três dezenas e duas unidades.
(D) Uma unidade de milhar, quatro dezenas, três centenas e duas unidades.

D28 **Questão 4**

Na escola de Guilherme existem 8 professoras de Matemática, 6 professoras de Ciências, 4 professoras de Geografia e 2 professores de Educação Física.
O gráfico que melhor representa o número de professores da escola de Guilherme é

(A)
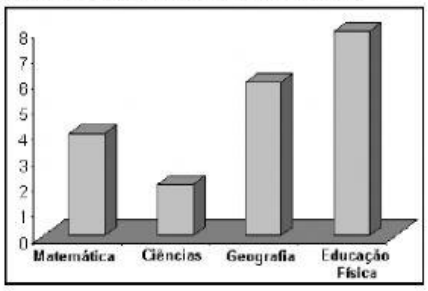

(B)
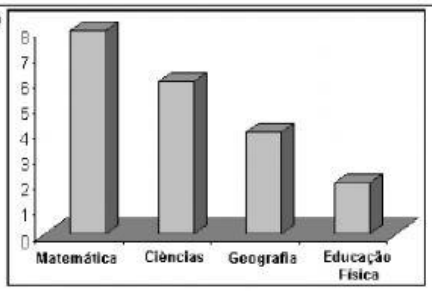

(C)
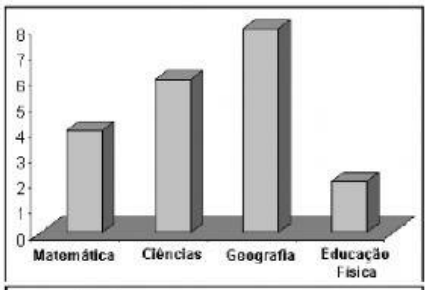

(D)
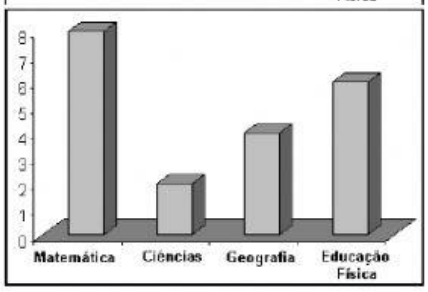

D16 **Questão 5**

Um número é decomposto em

1 x 1000 + 3 x 100 + 4 x 10

Esse número corresponde a
(A) 134
(B) 340
(C) 1340
(D) 1341

D3 **Questão 6**

A figura a seguir é um polígono que possui 3 lados.

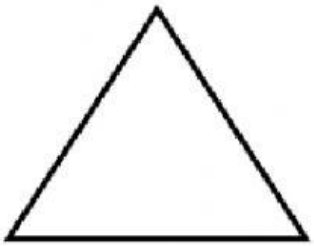

O nome deste polígono é
(A) quadrado
(B) retângulo
(C) triângulo
(D) círculo

LIVEWORKSHEETS

NOME :

D14 **Questão 7**

Marque a alternativa que representa a reta numérica em ordem crescente.

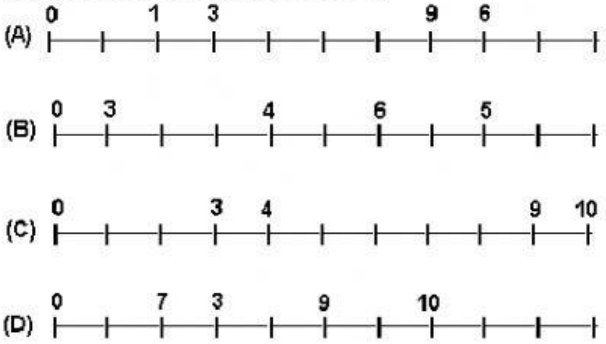

D15 **Questão 8**

Na reta numérica a seguir, alguns números foram trocados por letra.

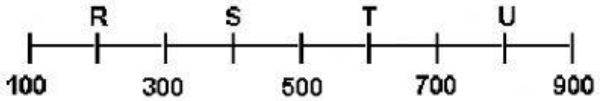

O ponto em que está localizada a letra S corresponde ao número

(A) 200
(B) 400
(C) 600
(D) 800

D9 **Questão 9**

O quadro a seguir mostra o horário de recreio da escola "Cantinho do Saber".

Início do Recreio	Término do recreio
9h 15min	9h 45 min

Esse recreio tem a duração de

(A) 20 minutos
(B) 25 minutos
(C) 30 minutos
(D) 35 minutos

D1 **Questão 10**

Observe o campo de futebol a seguir:

A bola está localizada

(A) a esquerda do campo.
(B) a direita do campo.
(C) na parte superior do campo.
(D) no centro do campo.

LIVEWORKSHEETS