

1. За коя природна зона на Африка се отнася описанието?

*Разположена е в най-северната и най-южната част на континента. Климатът е **субтропичен**, а реките със зимно пълноводие. Върху почвите, наречени **тера роса**, виреят **корков дъб и кипарис**, а от животните се срещат **чакалът и хиената**.*

А) за екваториалните гори; **Б)** за тропичните пустини;

В) за саваните; **Г)** за твърдолистните гори и храсти;

2. В коя двойка „природна зона – растение" има НЕСЪОТВЕТСТВИЕ?

А) влажни екваториални гори - лиани; **Б)** тропични пустини - баобаб;

В) твърдолистни гори и храсти - кипарис; **Г)** савани – чадъровидна акация;

3. Вие се подготвяте за експедиция в екваториалната гора в Африка. Отбележете принадлежностите, които ще са ви необходими:

А) моторна шейна; **Б)** надуваема лодка; **В)** противозмийски серум; **Г)** ски;

Д) пикел; **Е)** хамак; **Ж)** противокомарна мрежа; **З)** ветрозащитно облекло;

И) крем и очила срещу UV лъчи; **Й)** лекарства за малария и чревни паразити;

4. За кои природни зони на Африка са характерни особеностите?

А) големи денонощни и годишни температурни амплитуди, причиняващи силно изветряне на скалите .....

Б) виреят треви, чадъровидна акация и баобаб .....

В) повечето от животните обитават дърветата.....

Г) има субтропичен климат.....

LIVEWORKSHEETS

5. Нанесете, премествайки природните зони на квадратите на картата.

Зони:

1. Влажни екваториални гори
2. Савани
3. Тропични пустини и полупустини
4. Твърдолистни гори и храсти
5. Планинска зона

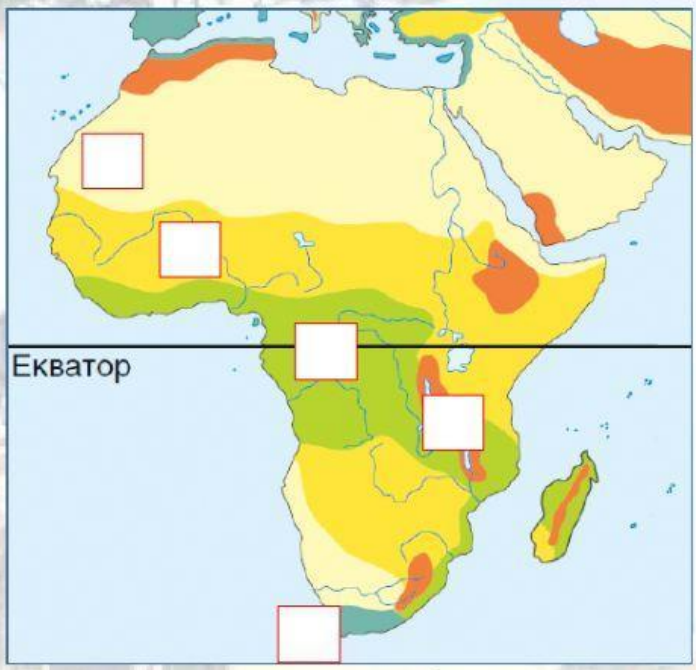

6. Преместете животното в графата на зоната му – редете 1 след друго.

жирафи, папагали, змии и гущери, лисици, камили, лъвове, муха цеце, хамелеони, чакали, лешояди, скорпиони, зебри, слонове, хипопотами, хиени, маймуни макак



Влажни екваториал-ни гори	Савани	Тропични пустини и полупустини	Твърдолистни гори и храсти

7. Свържете климатичната особеност със съответната природна зона.

1. ЦЕЛОГОДИШЕН СУХ КЛИМАТ, ГОЛЕМИ ДЕНОНОЩНИ ТЕМПЕРАТУРНИ АМПЛИТУДИ.
2. НИСКИ ТЕМПЕРАТУРИ И ОБИЛНИ ВАЛЕЖИ.
3. ТОПЛО И СУХО ЛЯТО, И МЕКА И ВЛАЖНА ЗИМА.
4. ВЕЧНО ЛЯТО, ЕЖЕДНЕВНИ ПРОЛИВНИ ДЪЖДОВЕ, ВИСОКА t^{o} C И ВЛАЖНОСТ НА ВЪЗДУХА.
5. ВЛАЖНО И ГОРЕЩО ЛЯТО, И СУХА И ГОРЕЩА ЗИМА.

ЕКВАТОРИАЛНА ГОРА

САВАНА

ТРОПИЧНА ПУСТИНЯ

ТВЪРДОЛИСТНИ ГОРИ И ХРАСТИ

ПЛАНИНСКА ОБЛАСТ

LIVEWORKSHEETS

8. Познавате ли растенията в континента? Маркирайте ги хоризонтално!

1) Цитрус, характерен за твърдолистните вечнозелени гори и храсти.
2) Характерно дърво за саваната.
3) Красиво цвете, растящо по дърветата.
4) Растение с дълги кожести листа, срещащо се в пустините и полупустините на Южна Африка.
5) Красиво, стройно растение, срещащо се по средиземноморското крайбрежие на континента.
6) Вид палма с вкусни плодове от тропичната пустиня.

Л	Ъ	В	Л	И	М	О	Н	Б	О	Т
А	К	А	Ч	И	Б	А	О	Б	А	Б
Ш	Р	М	И	М	О	З	А	Ю	Ъ	П
Ф	Я	В	Е	Л	В	И	Ч	И	Я	Х
К	И	П	А	Р	И	С	А	Л	О	И
З	Ц	Ч	Ф	И	Н	И	К	О	В	А

7) При правилно решение вертикално получавате името на места в пустините, разположени около кладенци със своеобразна растителност.

9. От листата на кое растение може да утолите жаждата си?

10. Познайте природната зона. Опишете я.....



.....

.....

.....

.....

.....

.....

.....

.....

LIVEWORKSHEETS