الاسم

# ضع علامة صح على الاشكال التي لها تناظر محوري

8

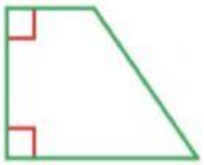

9.

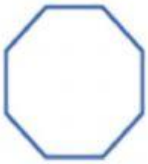

10.

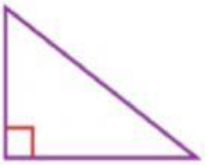

11.

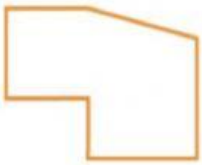

12

13.

ناتج التعلّم: تحديد الأشكال ذات خطوط التناظر المحوري ورسم خطوط التناظر المحوري

LIVEWORKSHEETS