,,Хөшүүрэг хялбар механизм,, интерактив дасгал

Зааварчилгаа

1. Даалгавраа гүйцэтгэж дуусаад Finish!! дараарай.
2. Зөв хариулт ногоон, буруу хариулт улаанаар тэмдэглэгдэнэ
3. 

Авсан оноогоо өөрөө харах бол сонгоорой

Үнэлгээг илгээх бол сонгоорой

4. Авсан оноо нь шууд гарна оноотойгоо танилцаарай.

Амжилт хүсье

LIVEWORKSHEETS

Хөшүүрэг ба хялбар механизм

1. Ачаа өргөх зориулалттай саваг ..... гэнэ.

2. Зургийг ажиглаад тохирох үгтэй нь холбоорой.

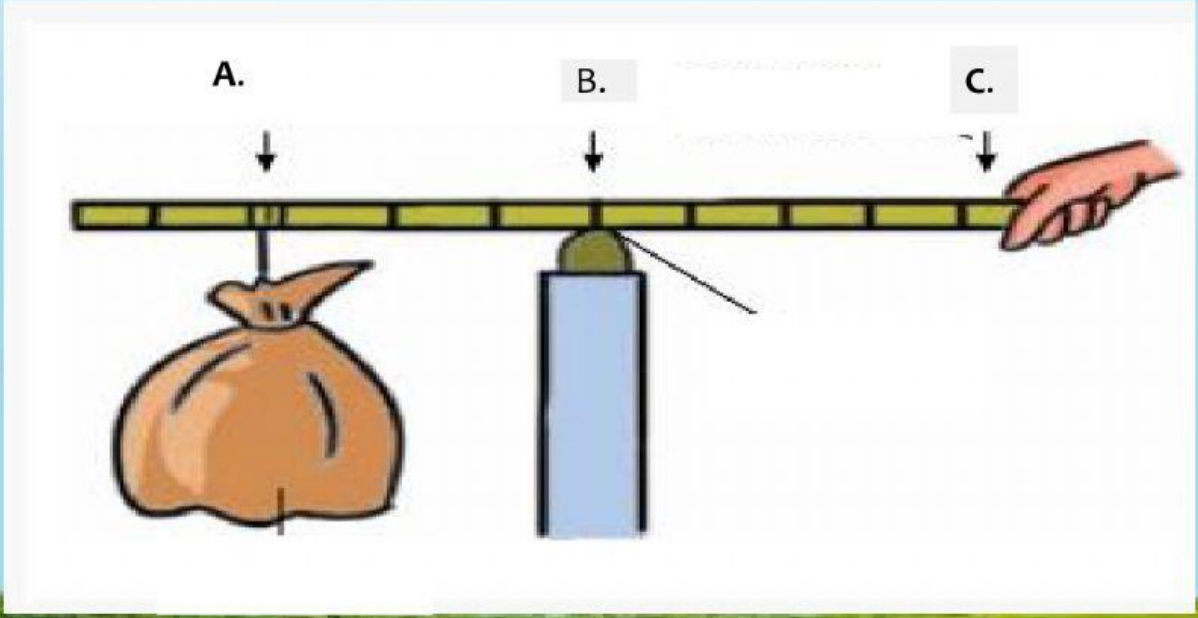

1.тулгуур

2.ачаа

3. Дарах цэг

LIVEWORKSHEETS

3. Өгөгдсөн зүйлсээс аль нь хөшүүргийн жишээ вэ?

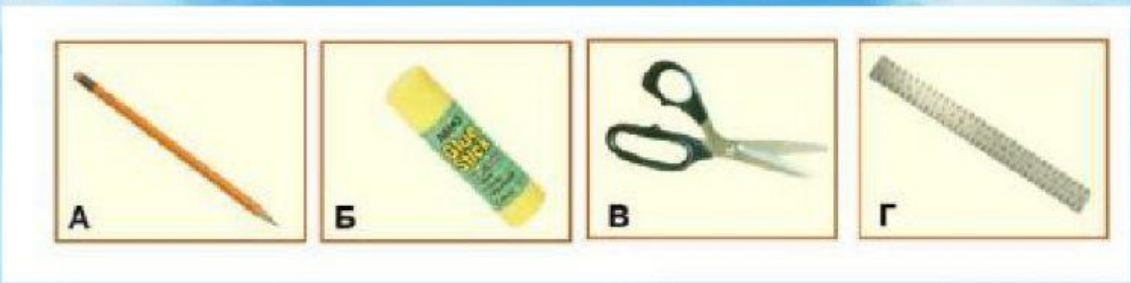

4. Зурагт өгөгдсөн самар хагалагчийг загвар зурагтай нь холбоорой

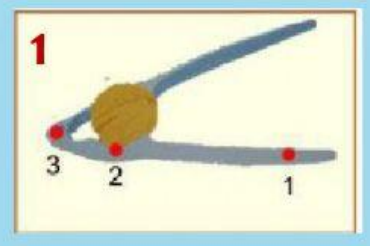

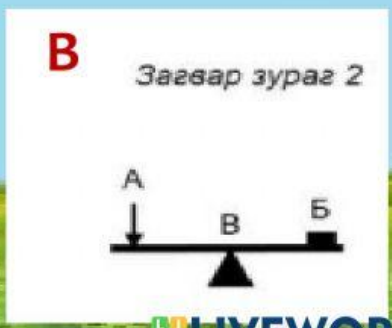

LIVEWORKSHEETS

5 Хөшүүргийн зарчмаар ажилладаг дараах хэрэгслүүдийг загвар зурагтай нь зөв холбоно уу.

А Хайч

В Хавчаар

Г Түрдэг тэрэг

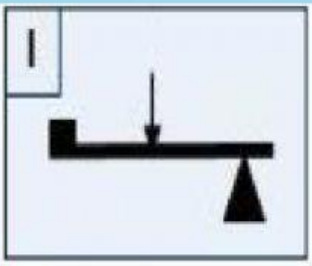

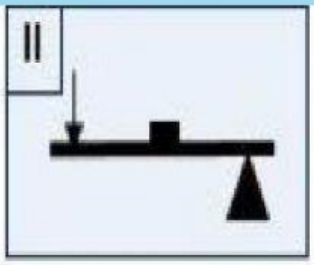

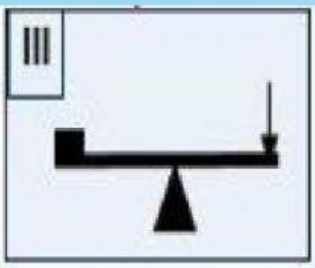

LIVEWORKSHEETS

6. Доорх зургийг ашиглан дараах даалгаврыг гүйцэтгэнэ үү?

Хөшүүргийг тэнцвэрт оруулахын тулд баруун мөрний 6 гэсэн цэг дээр ..... Г ачаа нэмж болно.Эсвэл зүүн мөрөнд байгаа 20г ачааг тулгуурт ойртуулж цэгт байрлуулж болно.

LIVEWORKSHEETS

7.Ямар нөхцөлд хөшүүргээр хүнд ачааг өргөхөд хялбар байх вэ?

A. Ачааг тулгуураас холдуулах, дарах цэгийг тулгуураас холдуулах

B. Ачааг тулгуураас холдуулах, дарах цэгийг тулгуурт ойртуулах

C. Ачааг тулгуурт ойртуулах, дарах цэгийг тулгуураас холдуулах

D. Ачааг тулгуурт ойртуулах, дарах цэгийг тулгуурт ойртуулах

8.Хөшүүргийн тулах цэгээс хүч үйлчлэх цэг хүртэлх зайг юу гэж нэрлэдэг вэ?

A. Мөр

B. тулах цэг

C. үйлчлэлийн цэг

D. хөшүүрэг

LIVEWORKSHEETS

9. Зурагт дүүжин даажингаар тоглох гэж буй хоёр найзыг харуулжээ. Дулмаа дүүжин даажингийн баруун мөрний 8-р цэг дээр сууж байна. Тэгвэл Чимгээ зүүн мөрний аль цэгт суувал дүүжин тэнцвэрт орж хоёр найз тоглох боломжтой болох вэ? Хариулт:

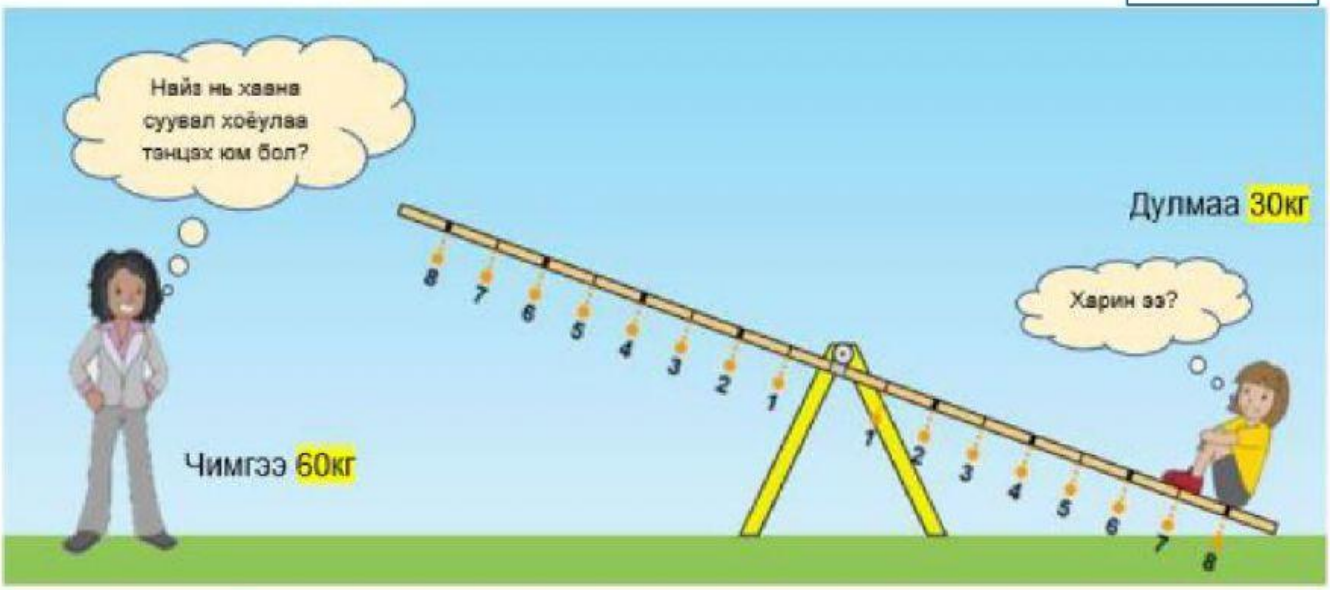

LIVEWORKSHEETS

10.Хөшүүргийг хэрхэн тэнцүүлж болох вэ? 10г туухай

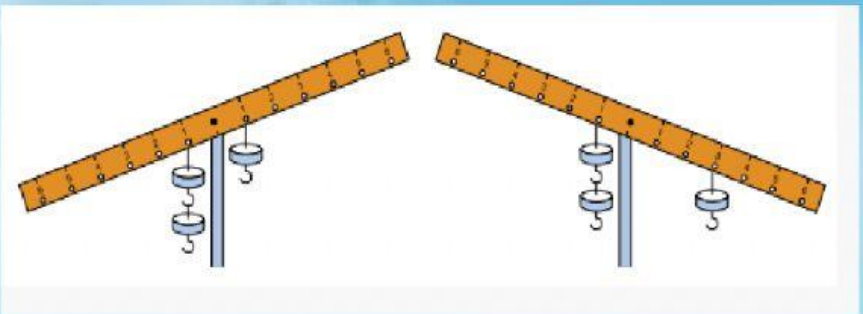

Өмнөх томьёогоо ашиглаж тооцоолоорой

Туухайны хэмжээ X Мөрний хэмжээ = Туухайны хэмжээ X Мөрний хэмжээ

Зүүн мөр

Баруун мөр

Баярлалаа

LIVEWORKSHEETS