1. Sudut 90° juga dikenal dengan sebutan sudut ....

a. Siku-siku

b. Lancip

c. Tumpul

2. Di antara Bangun datar berikut yang memiliki sudut lancip adalah ....

a. Persegi

b. Segitiga

c. Persegi panjang

3. Benda yang memiliki sudut siku-siku adalah ....

a. Gelas

b. Bola

c. Buku

4. Sudut tumpul adalah sudut yang besarnya lebih dari .... derajat

a. 80

b. 90

c. 100

5. Sudut lancip adalah sudut yang besarnya kurang dari ....

a. 95 Derajat

b. 90 Derajat

c. 60 Derajat

Gambar di atas adalah gambar dari sudut ....

a. Lancip

b. Siku-siku

c. Tumpul

7. Sudut yang dibentuk oleh jarum jam pada pukul 01.00 adalah ....

a. Sudut siku-siku

b. Sudut lancip

c. Sudut tumpul

LIVEWORKSHEETS

8.

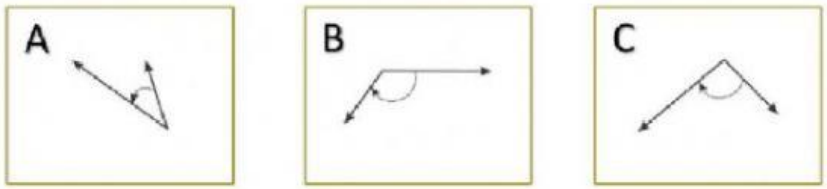

Gambar di atas secara urut menunjukan ....

a. A adahal sudut tumpul, B adalah sudut siku-siku dan C adalah sudut lancip
b. A adahal sudut lancip, B adalah sudut siku-siku dan C adalah sudut tumpul
c. A adahal sudut lancip, B adalah sudut tumpul dan C adalah sudut siku-siku

9. Nama sudut pada gambar di samping

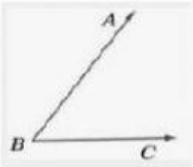

a. ABC
b. BAC
c. CAB

10. Nama sudut siku-siku pada gambar di samping

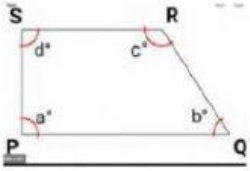

a. RSP,PQR
b. PRQ,QRS
c. RSP,SPQ

Latihan Perkalian

1. 5 x 3 = ...
2. 6 x 7 = ...
3. 8 x 5 = ...
4. 5 x 5 = ...
5. 9 x 4 = ...
6. 3 x 7 = ...
7. 7 x 7 = ...
8. 8 x 6 = ...
9. 9 x 9 = ...
10. 7 x 8 = ...

LIVEWORKSHEETS

LIVEWORKSHEETS