Escuela Básica de Chile Chico
Matemáticas
Segundos años A - B
Profesora Paula Ramos - Andrea Paredes

Clase nº 18 - Repaso de adiciones y sustracciones

Cuenta las cantidades, súmalas y escribe el resultado.

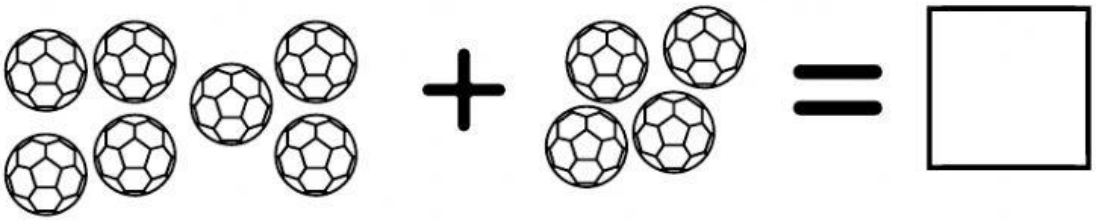

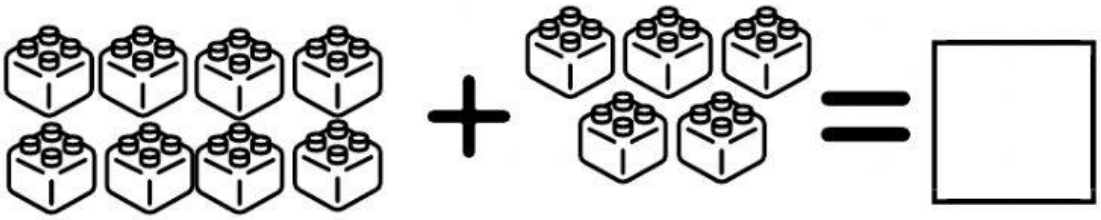





LIVEWORKSHEETS

Escuela Básica de Chile Chico
Matemáticas
Segundos años A - B
Profesora Paula Ramos - Andrea Paredes

Clase nº 18 - Repaso de adiciones y sustracciones

Usa la recta numérica para resolver las siguientes sumas.

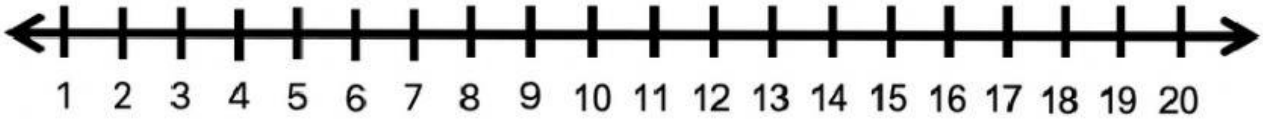

5 + 6 = ☐ 8 + 11 = ☐

6 + 8 = ☐ 5 + 10 = ☐

4 + 9 = ☐ 3 + 5 = ☐

10 + 4 = ☐ 13 + 3 = ☐

16 + 2 = ☐ 18 + 1 = ☐

10 + 9 = ☐ 17 + 3 = ☐

LIVEWORKSHEETS

Escuela Básica de Chile Chico
Matemáticas
Segundos años A - B
Profesora Paula Ramos - Andrea Paredes

Clase nº 18 - Repaso de adiciones y sustracciones

Resuelve la sustracción, tachando lo que hay que restar y completa con el resultado.

7 - 3 = ☐

12 - 7 = ☐

10 - 9 = ☐



14 - 6 = ☐

9 - 6 = ☐

LIVEWORKSHEETS

Escuela Básica de Chile Chico
Matemáticas
Segundos años A - B
Profesora Paula Ramos - Andrea Paredes

Clase nº 18 - Repaso de adiciones y sustracciones

Usa la recta numérica para resolver las siguientes restas.

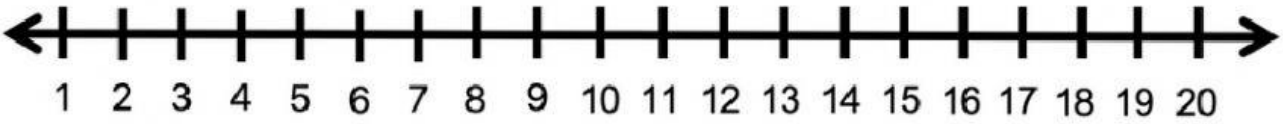

8 - 6 = ☐

12 - 5 = ☐

9 - 5 = ☐

10 - 7 = ☐

10 - 4 = ☐

13 - 3 = ☐

14 - 8 = ☐

18 - 6 = ☐

11 - 9 = ☐

15 - 3 = ☐

12 - 5 = ☐

7 - 4 = ☐

LIVEWORKSHEETS

Escuela Básica de Chile Chico
Matemáticas
Segundos años A - B
Profesora Paula Ramos - Andrea Paredes

Clase nº 18 - Repaso de adiciones y sustracciones

Resuelve las siguientes restas y sumas y une con su resultado correcto. Puedes ayudarte de la caja Mackinder.

8 - 6 =	10
5 + 5 =	14
10 + 4 =	2
14 - 8 =	6
13 + 3 =	7
12 - 5 =	13
10 + 3 =	3
7 - 4 =	16

LIVEWORKSHEETS

Escuela Básica de Chile Chico
Matemáticas
Segundos años A - B
Profesora Paula Ramos - Andrea Paredes

Clase nº 18 - Repaso de adiciones y sustracciones

Sigue los pasos para resolver cada uno de los problemas a continuación. Ayúdate de la caja Mackinder para resolver las operaciones.

1. Tomás compró 6 chicles y le dio 3 a sus amigos.
   ¿Con cuántos chicles se quedó Tomás?

R: Tomás quedó con _____ chicles.

2. Alberto compró 4 kilos de papas y 5 kilos de zanahorias.
   ¿Cuántos kilos compró en total?

R: Alberto compró _____ kilos en total.

3. Agustina hizo 12 cupcakes para su cumpleaños, sus amigos comieron 8.
   ¿Cuántos cupcakes quedaron?

R: Quedaron _____ cupcakes.

4. Agustina recibió 8 regalos de sus amigos y de sus papás recibio 2.
   ¿Cuántos regalos recibio en total?

R: Recibio _____ regalos.

LIVEWORKSHEETS