NOME:

PROFESSORA:

DATA:

FRAÇÕES

PROF. ÉDINA VIEIRA

✎ Observe o desenho e responda.

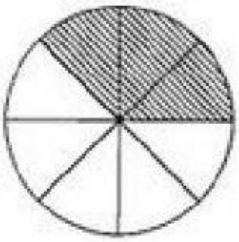

1- Em quantas partes o círculo foi dividido? _____

2- Quantas foram marcadas? _____

3- Qual a fração correspondente? _____

4- Uma fração é formada por dois numerais separados por um traço. Qual é o nome do numeral de cima?

_____

5- E o do debaixo? _____

✎ Complete o quadro com o que se pede:

Desenho	Denominador	Numerador	Fração
			
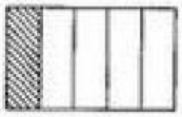			
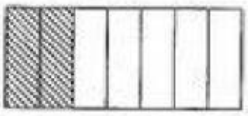			
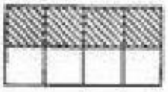			

LIVEWORKSHEETS