GRÁFICOS DE BARRAS

Observa y contesta.

En el cumpleaños de Mari Carmen han invitado a 28 personas y estas han sido las preferencias a la hora de tomar el postre.

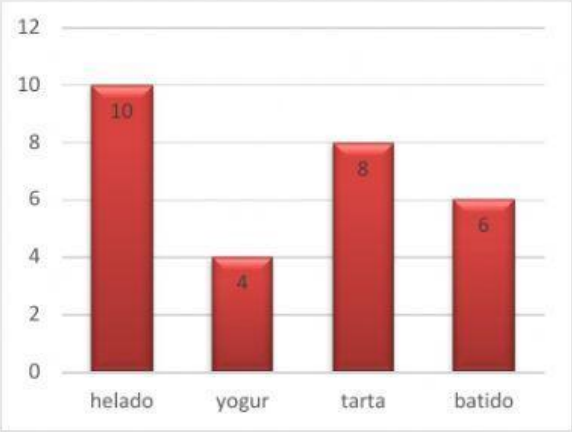

- ¿Cuántas personas han elegido cada postre?

  helado ____ yogur ____ tarta ____ batido ____

- ¿Qué postre han preferido más personas? ____
- ¿Qué postre han elegido menos peronas? ____

En el último examen de matemáticas los alumnos de la clase han obtenido las siguientes calificaciones.

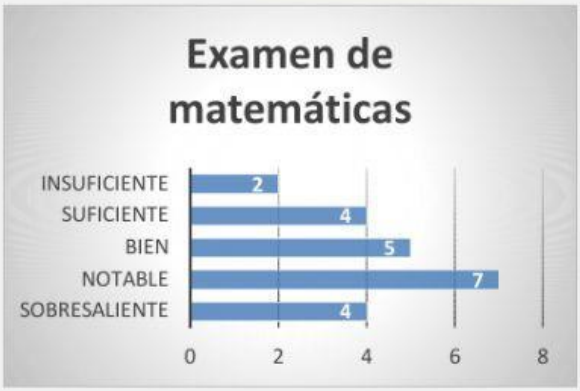

- Rellena los datos y contesta.

Insuficiente	Suficiente	Bien	Notable	Sobresaliente

- ¿Cuántos alumnos hay en la clase? ____
- ¿Cuántos notables más que sobresalientes hay? ____

LIVEWORKSHEETS

Hemos preguntado a los alumnos y alumnas de 2º cuáles eran sus frutas preferidas y estos son los resultados:

Melocotón	3
Manzana	6
Fresas	8
Plátano	5



- ¿A cuántos alumnos les gusta más las fresas que las manzanas?
- ¿A cuántos niños/as les gusta menos el melocotón que el plátano?
- ¿A cuántos niños hemos preguntado en total?

Cuenta las figuras, escribe el resultado y completa la tabla.

triángulos círculos cuadrados

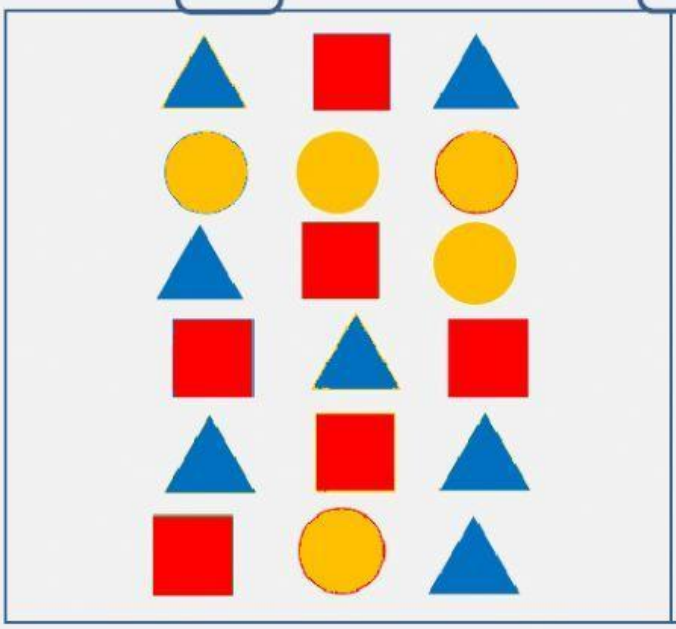

- ¿Cántos círculos menos que triángulos hay?
- ¿Cuántos triángulos más que cuadrados hay?

LIVEWORKSHEETS