Aluno (a): _____

São João de Pirabas, _____ de _____ de 2021.

Atividade 02 de Matemática.

1- CONTE E REGISTRE NA TABELA AS QUANTIDADES DOS ELEMENTOS DA PÁSCOA:



2- CALCULE O RESULTADO DAS ADIÇÕES E LIGUE CADA OVO DE PÁSCOA A SUA CESTINHA:

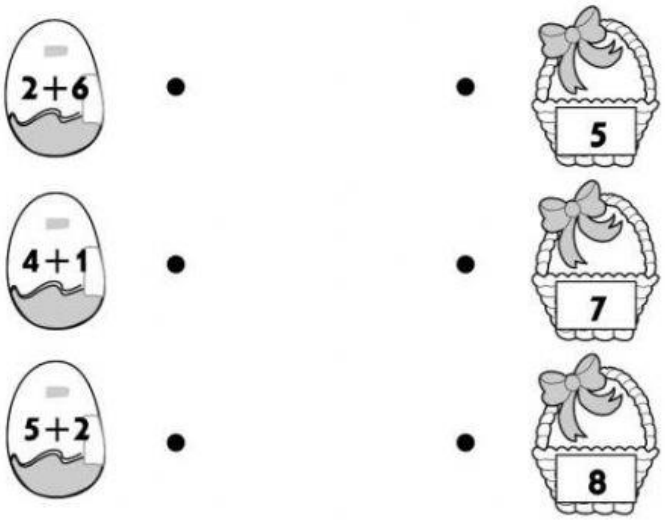

LIVEWORKSHEETS

3- QUEM SÃO OS VIZINHOS? ESCREVA-OS:

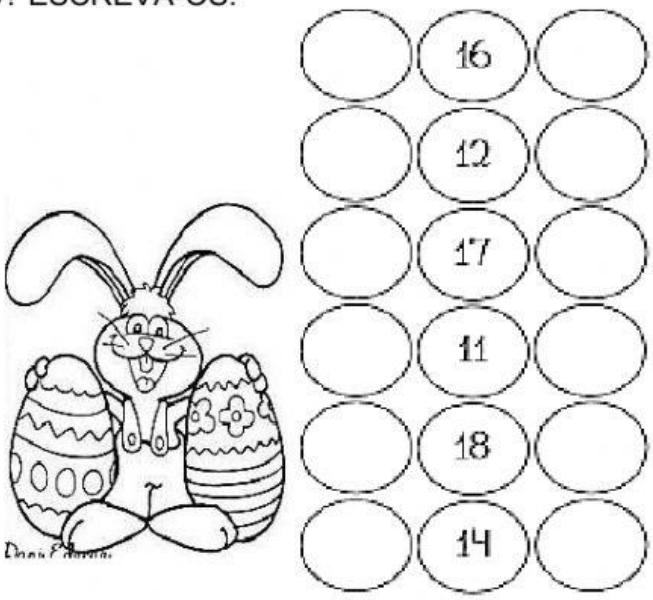

4- OBSERVE A IMAGEM E RESPONDA:

ANA ESTÁ PROCURANDO OS OVOS QUE SUA MÃE ESCONDEU NO JARDIM.

A) QUANTOS OVOS ELA ENCONTROU?

B) QUANTOS OVOS AINDA ESTÃO ESCONDIDOS?

C) QUANTOS OVOS AO TODO?

D) MARQUE A OPÇÃO QUE REPRESENTA O TOTAL DE OVOS:

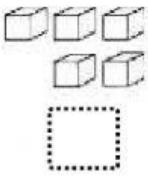



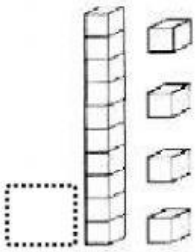

LIVEWORKSHEETS