Суурь боловсролын Математик шалгалтын тест

1. Англійн Лондон хотод 08:00 цаг болж байв. Энэ үед аль хотод хэдэн цаг болж байх вэ? Аль хувилбарт хотуудыг цагтай нь зөв харгалзуулсан байна вэ?

1	02:00
2	16:00
3	18:00
4	10:00

А	Улаанбаатар (+8)
Б	Чикаго (-6)
В	Парис (+2)
Г	Сидней (+10)

A. 1А 2Г 3Б 4В B. 1Г 2А 3Б 4В C. 1Б 2А 3Г 4В D. 1В 2А 3Б 4Г

2. ABC гурвалжны AC=16см, талбай нь 120см^2 бол BK-ийн уртыг олоорой.

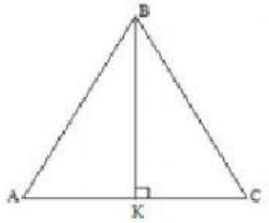

A. 60см B. 15см C. 30см D. 7.5см

3. Секторын талбайг олоорой.

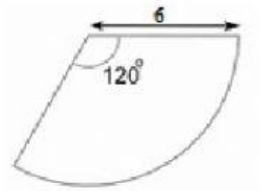

A. 36π B. 12π C. 4π D. 9π

4. Параллелограммын талбайг олоорой.



A. 27 B. 36 C. 80 D. 54

LIVEWORKSHEETS

Суурь боловсролын Математик шалгалтын тест

5. Адил хажуут гурвалжны суурь нь 17, периметр нь 93 бол хажуу талыг ол.

A. 76 B. 38 C. 28 D. 59

6. Зам-хугацааны график өгчээ. Аяллын хугацаанд нийт хэдэн секунд амарсан бэ?

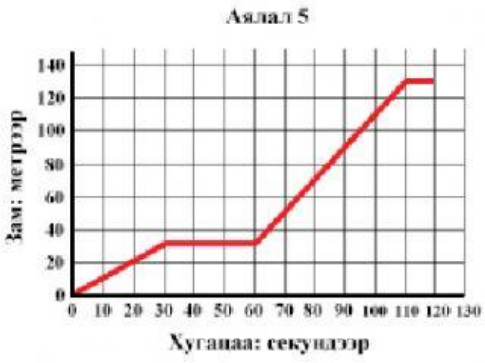

A. 30 сек B. 40 сек C. 60 сек D. 10 сек

7. Параллелограммын периметр нь 124, нэг тал нь 20 бол нөгөө талын урт аль нь вэ?

A. 52 B. 42 C. 84 D. 40

8. Зурагт өгсөн секторын талбай аль нь вэ?

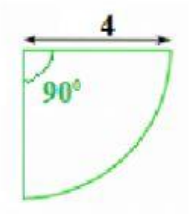

A. π B. 2π C. 540 D. 4π

LIVEWORKSHEETS

Суурь боловсролын Математик шалгалтын тест

ТҮЛХҮҮР

№	Д№	Хариулт	Хариултын тайлбар	Оноо
1	1	С. 1Б 2А 3Г 4В		1
2	2	В. 15см		1
3	3	В. 12π		1
4	4	D. 54		1
5	5	В. 38		1
6	6	В. 40 сек		1
7	7	В. 42		1
8	8	D. 4π	2016	1
НИЙТ				8

LIVEWORKSHEETS