Colegio MATER PURISSIMA
Desde 1953

FICHA DE TRABAJO

1.- Reconoce los elementos de la geometría en las siguientes imágenes

Rayo

Segmento

Recta

Plano



2.- Selecciona la alternativa correcta por cada definición.

- *Es una línea que no tiene inicio ni final.*
- *Es una superficie plana, donde van los puntos y las líneas.*
- *Es una línea que tiene inicio y final.*
- *Es una línea que se conoce su inicio, pero no su final.*

LIVEWORKSHEETS

3.- ¿Qué tipo de línea debo utilizar para dibujar las siguientes imágenes?

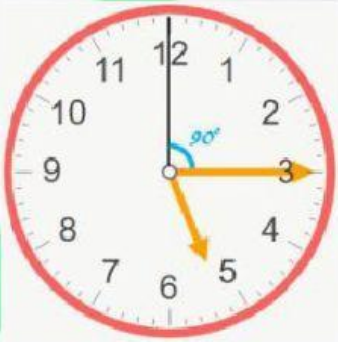

SEGMENTO

RAYO

RECTA

4.- Resolver la siguiente pregunta.

Juan decide trazar una línea que tiene 15,2 cm en su cuaderno. ¿Qué tipo de línea habrá utilizado?

Pedro construyó con 3 líneas 2 ángulos, ¿Qué tipo de línea utilizó?

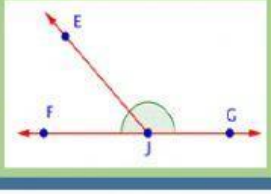

LIVEWORKSHEETS

5.- Resolver el nombre de los elementos de la geometría.

a) •M: _____

b) $\overrightarrow{HL}$: _____

c) $\overleftrightarrow{RS}$: _____

d) ▱M: _____

e) $\overrightarrow{DO}$: _____

f) $\overline{BC}$: _____

LIVEWORKSHEETS