# Polígonos: El perímetro

1. *Calcula el perímetro de estos polígonos:*

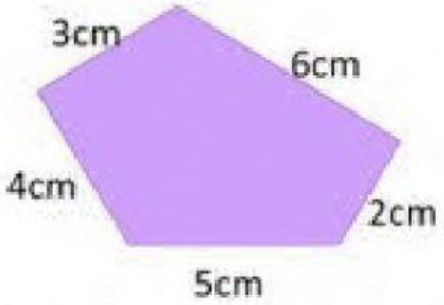


*Escribe la operación que necesitas realizar:*

*Resultado: El perímetro es* ____ *cm*

2. *Escribe la operación que necesitas realizar:*

*Resultado: El perímetro es* ____ *cm*

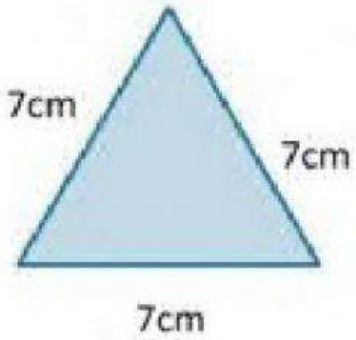


3. *¿Cuál es el perímetro de esta parcela?*

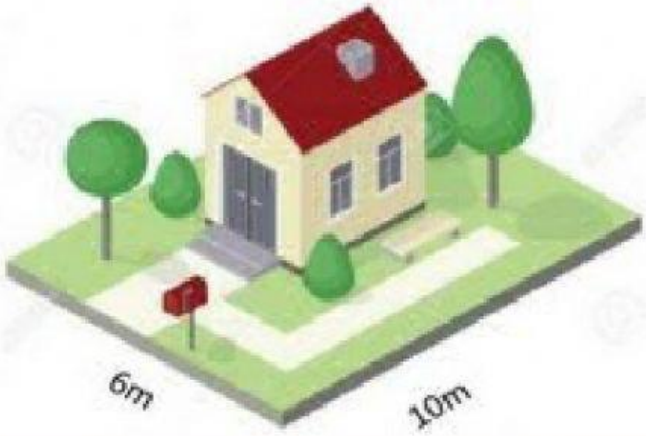


*Escribe la operación que necesitas realizar:*

*Resultado: El perímetro es* ____ *m*

LIVEWORKSHEETS

Completa la tabla con atención. Escribe con letras MAYÚSCULAS los nombres .

| DIBUJO DEL POLÍGONO | NOMBRE DEL POLÍGONO | Nº DE LADOS | Nº DE VÉRTICES | Nº DE ÁNGULOS |
|---|---|---|---|---|
| 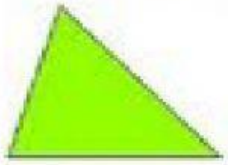 | | | | |
| | | | | |
| | | | | |
| | | | | |
|  | | | | |

LIVEWORKSHEETS