Suma hasta el 10



Cuenta los bloques y suma. *Recuerda*, **contar a partir del número mayor.**

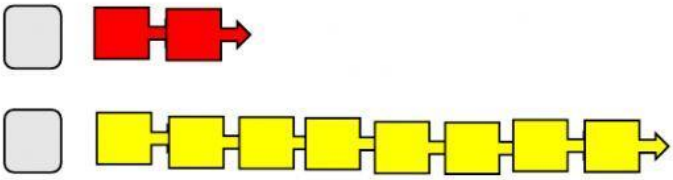

__ + __ = __

Hay **6** perros riéndose y **2** están jugando con un hueso.

¿Cuántos perros hay en total?

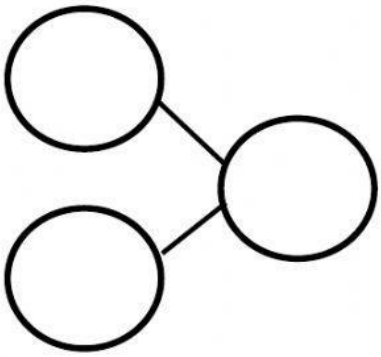

__ + __ = __

Hay _____ perros en total

Eloísa le dio **4** peras a Mario y la mamá le da **5** más.
¿Cuántas peras tiene Mario ahora?



__ + __ = __

Mario tiene _____ peras ahora.

LIVEWORKSHEETS