COLEGIO BALBINO GARCIA - PIEDECUESTA

DOCENTE: GLORIA ESPERANZA SERRANO DIAZ

MATEMÁTICAS **GRADO: 5° 03** **PRIMER PERIODO**

FECHA: ABRIL 15 DEL 2021

LEE CON MUCHA ATENCIÓN LAS SIGUIENTES SITUACIONES Y SELECCIONA LA RESPUESTA QUE CONSIDERES CORRECTA:

AYUDANDO EN LA FINCA

Miguel está de vacaciones, como le encanta el campo, se fue con su tío a la finca para ayudarle a recoger las frutas que están en cosecha.

Para llevar un control sobre la cantidad de frutas que se recogen, cada día van anotando el número de canastos que se llenan con las frutas recolectadas.

Observa la gráfica que realiza Miguel del número de canastos de frutas que recogen con su tío cada día durante cinco días:

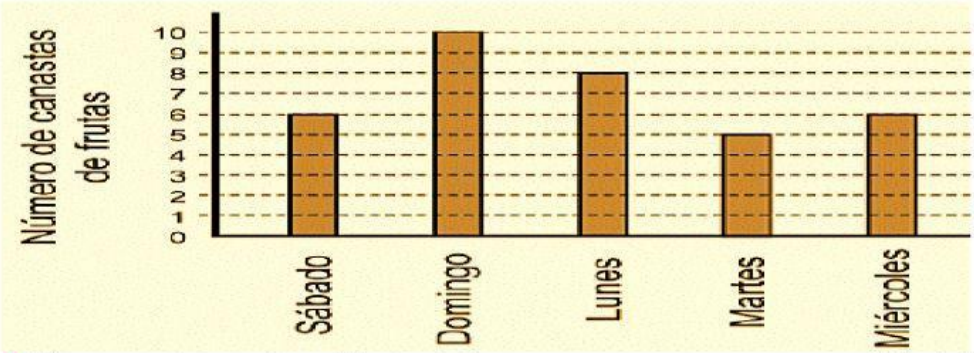

1. De acuerdo con la gráfica, el día que se recoge mayor cantidad de frutas es el:

A	Domingo	**B**	Lunes	**C**	Martes	**D**	Miércoles

2. Para llevar las frutas al mercado, se empacan en canastos. Miguel se da cuenta de que en cada canasto hay 12 frutas, **¿cuántas frutas hay en 6 canastos?**

A	18 frutas.	**B**	72 frutas
C	6 frutas.	**D**	126 frutas.

3. Miguel está regando el cultivo de fresas. Por cada nueve plantas utiliza un balde de agua. Si Miguel tiene agua para llenar ocho baldes, **¿le alcanzará para regar 65 plantas?**

A	Sí, le alcanza y le sobra.	**B**	Sí, le alcanza justo.
C	No, no le alcanza.	**D**	No, le falta el doble de baldes.

4. El tío le explica a Miguel que en la finca hay dos lugares donde las gallinas ponen huevos; en el primero hay 78 gallinas y en el segundo hay 52 gallinas.

Si cada gallina pone 5 huevos a la semana, **¿cuántos huevos ponen en una semana todas las gallinas?**

A	650	**B**	130	**C**	135	**D**	260

LIVEWORKSHEETS

5. En la finca se producen huevos blancos y rosados. El tío le cuenta a Miguel que en los últimos 3 meses se han producido 5.718 huevos de los cuales 1.250 han sido blancos.
¿Cuántos de estos huevos han sido rosados?

A	6.968	**B**	4.468	**C**	4.568	**D**	1.906

6. En la finca hay muchas vacas y terneros. Si hay 150 vacas y se sabe que la tercera parte de las vacas tiene un ternero, **¿cuántos terneros hay?**

A	75	**B**	450	**C**	5	**D**	50

7. Con la leche de las vacas se fabrican quesos. Miguel observa 4 quesos donde aparecen sus pesos en gramos.

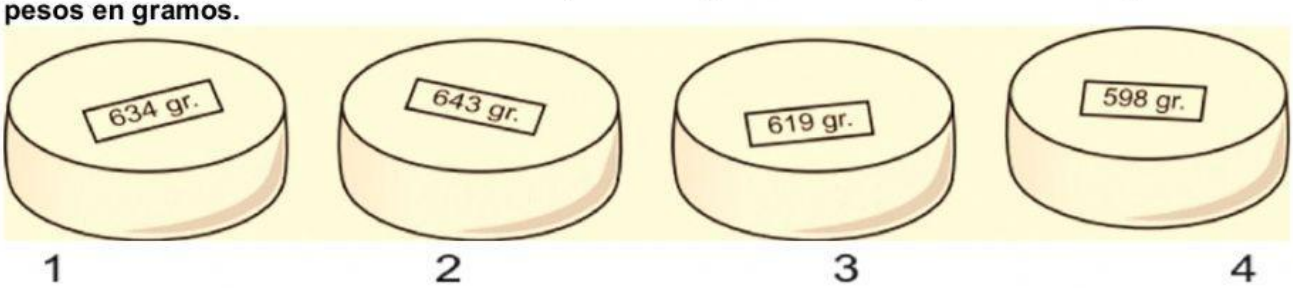

Al organizar los quesos de menor a mayor de acuerdo a sus pesos el orden sería:

A	4,3,2,1.	**B**	2,1,3,4.	**C**	4,3,1,2	**D**	3,1,2,4.

8. En la finca preparan también quesos grandes que se venden a restaurantes. Miguel observa uno de estos quesos.



Otra forma de escribir el número 9.634 es:

A	96 unidades de mil, 3 decenas y 4 unidades	**B**	9 unidades de mil, 63 decenas y 4 unidades.
C	9 unidades de mil, 6 centenas y 34 decenas.	**D**	96 centenas y 34 decenas.

9. En la finca también se cosechan moras, las cuales las empacan en pequeñas cajitas de 35 moras cada una.
Si en total hay 25 cajitas de moras para llevar a vender al mercado, **¿cuántas moras en total se llevan para vender?**

A	60	**B**	245	**C**	875	**D**	755

10. Al terminar su visita, el tío le regala a Miguel una caja con galletas. Miguel decide repartirlas con 6 de sus amigos.
Si en la caja que le da su tío a Miguel hay 45 galletas y a cada uno de sus amigos le entrega el mismo número de galletas, **¿cuántas galletas le toca a cada uno?**

A	7 galletas y no le sobra ninguna.	**B**	7 galletas y le faltan 3.
C	8 galletas y no le sobra ninguna.	**D**	7 galletas y le sobran 3.

POR FAVOR DA CLIC EN TERMINADO

COLOCA TU NOMBRE Y APRELLIDO

LIVEWORKSHEETS